División Visual

Nombre:

Usa las formas proporcionadas para resolver las preguntas.

Ej) ¿Cuántos grupos de 6 se pueden hacer con las 18 formas de abajo?

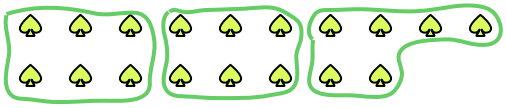

1) ¿Cuántos grupos de 4 se pueden hacer con las 20 formas de abajo?

2) ¿Cuántos grupos de 7 se pueden hacer con las 14 formas de abajo?

3) ¿Cuántos grupos de 2 se pueden hacer con las 8 formas de abajo?

4) ¿Cuántos grupos de 5 se pueden hacer con las 25 formas de abajo?



5) ¿Cuántos grupos de 3 se pueden hacer con las 15 formas de abajo?

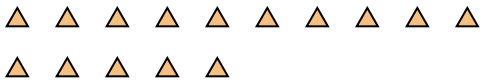

6) ¿Cuántos grupos de 5 se pueden hacer con las 20 formas de abajo?

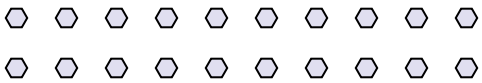

7) ¿Cuántos grupos de 5 se pueden hacer con las 40 formas de abajo?



8) ¿Cuántos grupos de 9 se pueden hacer con las 27 formas de abajo?

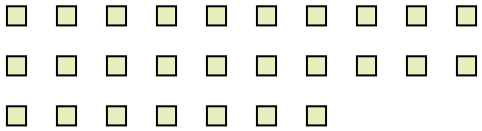

9) ¿Cuántos grupos de 4 se pueden hacer con las 16 formas de abajo?



10) ¿Cuántos grupos de 4 se pueden hacer con las 32 formas de abajo?

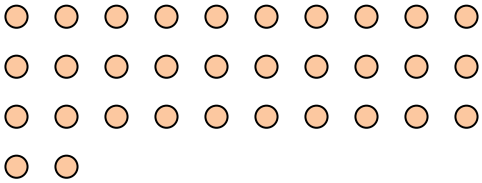

11) ¿Cuántos grupos de 5 se pueden hacer con las 25 formas de abajo?

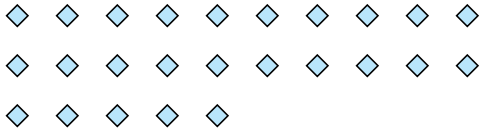

Respuestas

Ej. 3

1. _____
2. _____
3. _____
4. _____
5. _____
6. _____
7. _____
8. _____
9. _____
10. _____
11. _____

1-10	91	82	73	64	55	45	36	27	18	9
11	0									

Usa las formas proporcionadas para resolver las preguntas.

Ej) ¿Cuántos grupos de 6 se pueden hacer con las 18 formas de abajo?

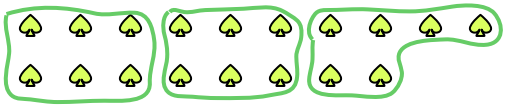

1) ¿Cuántos grupos de 4 se pueden hacer con las 20 formas de abajo?

2) ¿Cuántos grupos de 7 se pueden hacer con las 14 formas de abajo?

3) ¿Cuántos grupos de 2 se pueden hacer con las 8 formas de abajo?

4) ¿Cuántos grupos de 5 se pueden hacer con las 25 formas de abajo?



5) ¿Cuántos grupos de 3 se pueden hacer con las 15 formas de abajo?

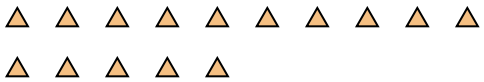

6) ¿Cuántos grupos de 5 se pueden hacer con las 20 formas de abajo?

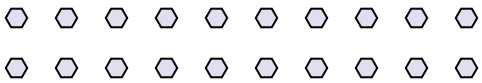

7) ¿Cuántos grupos de 5 se pueden hacer con las 40 formas de abajo?



8) ¿Cuántos grupos de 9 se pueden hacer con las 27 formas de abajo?

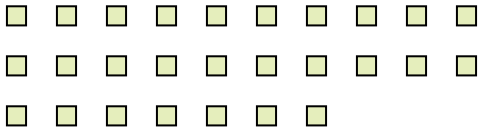

9) ¿Cuántos grupos de 4 se pueden hacer con las 16 formas de abajo?



10) ¿Cuántos grupos de 4 se pueden hacer con las 32 formas de abajo?

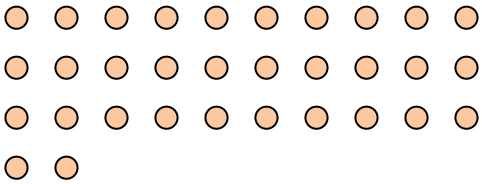

11) ¿Cuántos grupos de 5 se pueden hacer con las 25 formas de abajo?

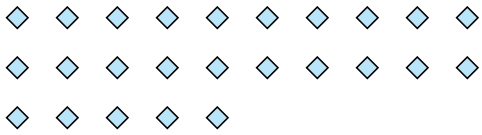

Respuestas

Ej.	3
1.	5
2.	2
3.	4
4.	5
5.	5
6.	4
7.	8
8.	3
9.	4
10.	8
11.	5

1-10	91	82	73	64	55	45	36	27	18	9
11	0									