División Visual

Nombre:

Usa las formas proporcionadas para resolver las preguntas.

Ej) ¿Cuántos grupos de 6 se pueden hacer con las 18 formas de abajo?

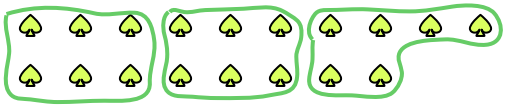

1) ¿Cuántos grupos de 9 se pueden hacer con las 36 formas de abajo?

2) ¿Cuántos grupos de 2 se pueden hacer con las 32 formas de abajo?



3) ¿Cuántos grupos de 6 se pueden hacer con las 18 formas de abajo?

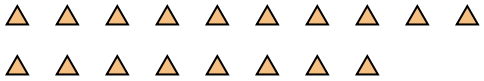

4) ¿Cuántos grupos de 7 se pueden hacer con las 35 formas de abajo?

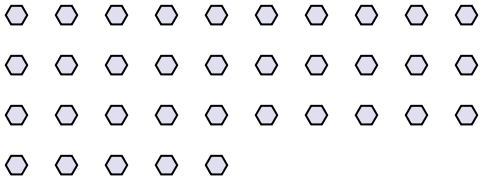

5) ¿Cuántos grupos de 9 se pueden hacer con las 36 formas de abajo?

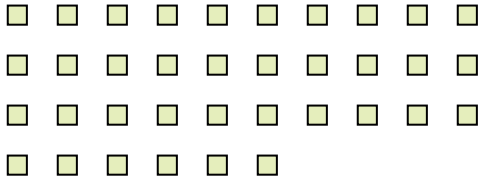

6) ¿Cuántos grupos de 6 se pueden hacer con las 12 formas de abajo?

7) ¿Cuántos grupos de 2 se pueden hacer con las 4 formas de abajo?

8) ¿Cuántos grupos de 8 se pueden hacer con las 16 formas de abajo?

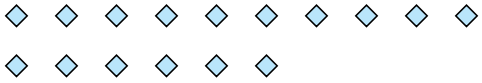

9) ¿Cuántos grupos de 8 se pueden hacer con las 32 formas de abajo?



10) ¿Cuántos grupos de 8 se pueden hacer con las 16 formas de abajo?

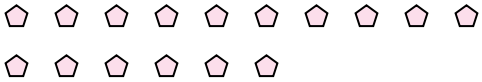

11) ¿Cuántos grupos de 5 se pueden hacer con las 10 formas de abajo?

Respuestas

Ej. 3

1. _____
2. _____
3. _____
4. _____
5. _____
6. _____
7. _____
8. _____
9. _____
10. _____
11. _____

1-10	91	82	73	64	55	45	36	27	18	9
11	0									

Usa las formas proporcionadas para resolver las preguntas.

Ej) ¿Cuántos grupos de 6 se pueden hacer con las 18 formas de abajo?

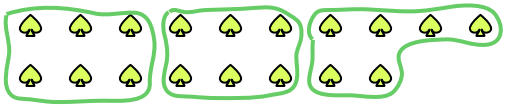

1) ¿Cuántos grupos de 9 se pueden hacer con las 36 formas de abajo?

2) ¿Cuántos grupos de 2 se pueden hacer con las 32 formas de abajo?



3) ¿Cuántos grupos de 6 se pueden hacer con las 18 formas de abajo?

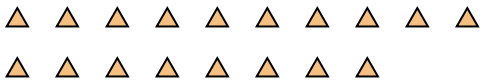

4) ¿Cuántos grupos de 7 se pueden hacer con las 35 formas de abajo?

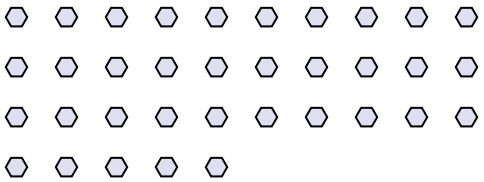

5) ¿Cuántos grupos de 9 se pueden hacer con las 36 formas de abajo?



6) ¿Cuántos grupos de 6 se pueden hacer con las 12 formas de abajo?

7) ¿Cuántos grupos de 2 se pueden hacer con las 4 formas de abajo?

8) ¿Cuántos grupos de 8 se pueden hacer con las 16 formas de abajo?

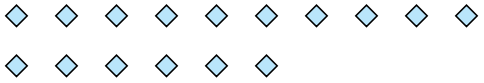

9) ¿Cuántos grupos de 8 se pueden hacer con las 32 formas de abajo?



10) ¿Cuántos grupos de 8 se pueden hacer con las 16 formas de abajo?

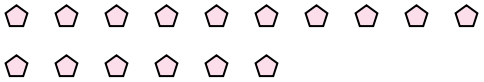

11) ¿Cuántos grupos de 5 se pueden hacer con las 10 formas de abajo?

Respuestas

Ej.	3
1.	4
2.	16
3.	3
4.	5
5.	4
6.	2
7.	2
8.	2
9.	4
10.	2
11.	2

1-10	91	82	73	64	55	45	36	27	18	9
11	0									