Encontrando relaciones (Visual)

Nombre:

Resolver cada problema.

Ej) ¿Cuál es la relación de cuadros a estrellas?

1) ¿Cuál es la relación de corazones a pentágonos?



2) ¿Cuál es la relación de círculos a cuadros?

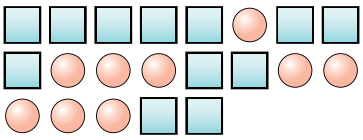

3) ¿Cuál es la relación de estrellas a círculos?



4) ¿Cuál es la relación de triángulos a estrellas?

5) ¿Cuál es la relación de estrellas a cuadros?



6) ¿Cuál es la relación de pentágonos a cuadros?

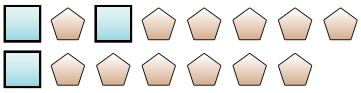

7) ¿Cuál es la relación de corazones a lunas?

8) ¿Cuál es la relación de corazones a triángulos?

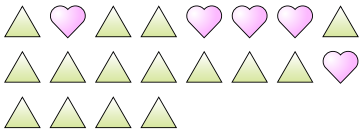

9) ¿Cuál es la relación de círculos a lunas?

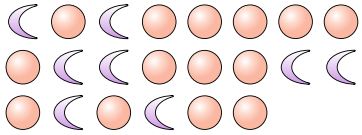

10) ¿Cuál es la relación de círculos a estrellas?



11) ¿Cuál es la relación de pentágonos a cuadros?

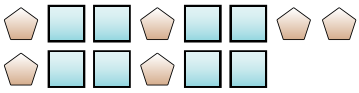

Respuestas

Ej. 6:6

1. _____
2. _____
3. _____
4. _____
5. _____
6. _____
7. _____
8. _____
9. _____
10. _____
11. _____

1-10	91	82	73	64	55	45	36	27	18	9
11	0									

Nombre: **Clave De Respuestas**

Resolver cada problema.

Ej) ¿Cuál es la relación de cuadros a estrellas?

1) ¿Cuál es la relación de corazones a pentágonos?



2) ¿Cuál es la relación de círculos a cuadros?

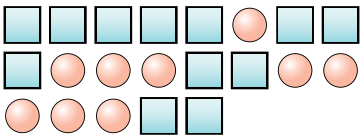

3) ¿Cuál es la relación de estrellas a círculos?



4) ¿Cuál es la relación de triángulos a estrellas?

5) ¿Cuál es la relación de estrellas a cuadros?



6) ¿Cuál es la relación de pentágonos a cuadros?

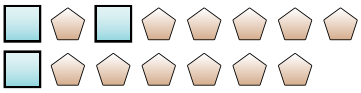

7) ¿Cuál es la relación de corazones a lunas?

8) ¿Cuál es la relación de corazones a triángulos?

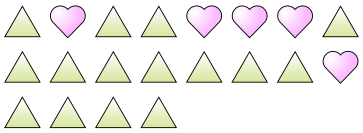

9) ¿Cuál es la relación de círculos a lunas?

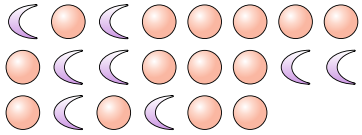

10) ¿Cuál es la relación de círculos a estrellas?



11) ¿Cuál es la relación de pentágonos a cuadros?

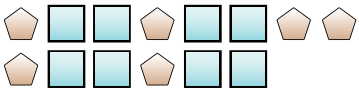

Respuestas

Ej.	6:6
1.	11:6
2.	9:12
3.	11:6
4.	14:3
5.	4:9
6.	12:3
7.	9:14
8.	5:15
9.	14:8
10.	8:12
11.	6:8

1-10	91	82	73	64	55	45	36	27	18	9
11	0									