Interpretación de histogramas Nombre:

Utilice los histogramas que se muestran para responder cada pregunta.

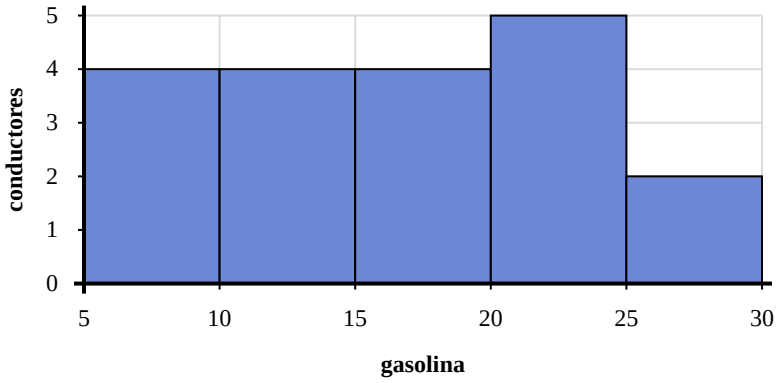

1) ¿Cuántos conductores compraron entre 20 y 25 galones?

2) ¿Cuántos conductores están representados en este histograma?

3) Si un conductor comprara 22 galones, ¿a qué barra se agregaría?

4) La mayoría de los conductores compran entre _____ y _____ galones de gasolina.

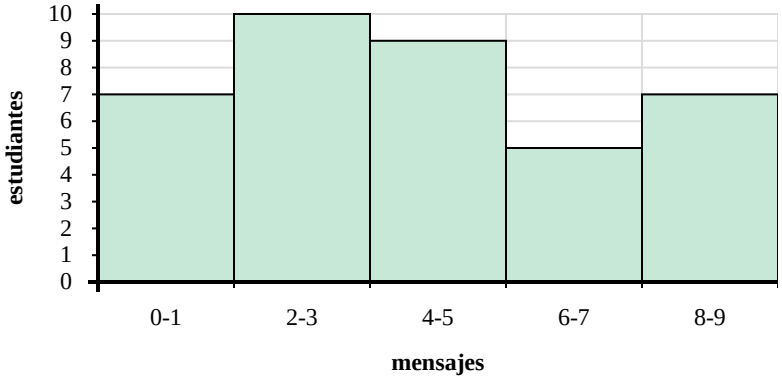

5) ¿Cuántos estudiantes están representados en este histograma?

6) La mayoría de los estudiantes se envían entre _____ y _____ textos.

7) ¿Cuántos estudiantes enviaron entre 6 y 8 textos?

8) Si un estudiante enviara 0 textos, ¿a qué barra se agregaría?

Respuestas

1. _____
2. _____
3. _____
4. _____ _____
5. _____
6. _____ _____
7. _____
8. _____

1-8	88	75	63	50	38	25	13	0

Utilice los histogramas que se muestran para responder cada pregunta.

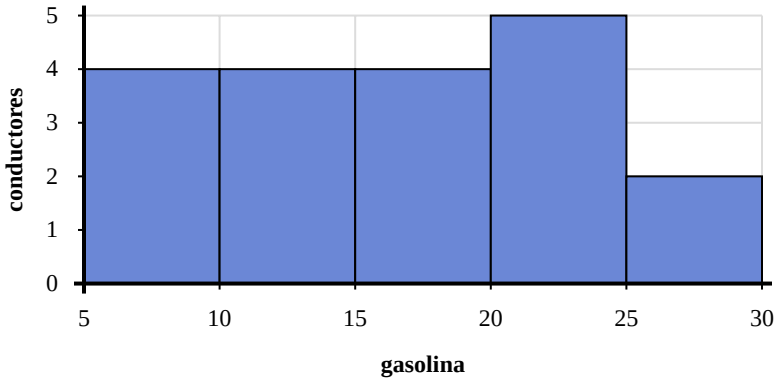

1) ¿Cuántos conductores compraron entre 20 y 25 galones?

2) ¿Cuántos conductores están representados en este histograma?

3) Si un conductor comprara 22 galones, ¿a qué barra se agregaría?

4) La mayoría de los conductores compran entre _____ y _____ galones de gasolina.

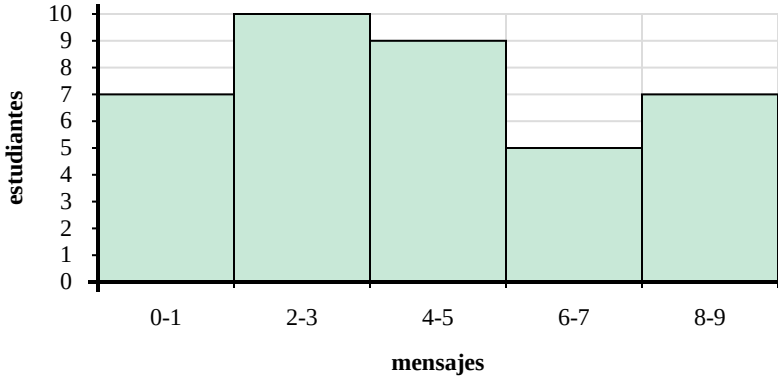

5) ¿Cuántos estudiantes están representados en este histograma?

6) La mayoría de los estudiantes se envían entre _____ y _____ textos.

7) ¿Cuántos estudiantes enviaron entre 6 y 8 textos?

8) Si un estudiante enviara 0 textos, ¿a qué barra se agregaría?

Respuestas

1. 5
2. 19
3. 4
4. 20 25
5. 38
6. 2 4
7. 5
8. 1

1-8	88	75	63	50	38	25	13	0