Determinar cuál plano cartesiano corresponde a cada pregunta.

A.

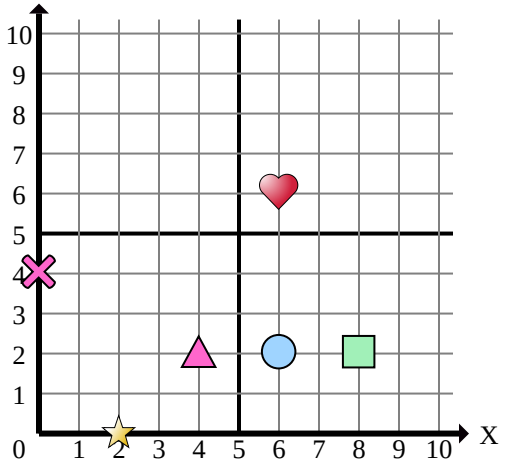

B.

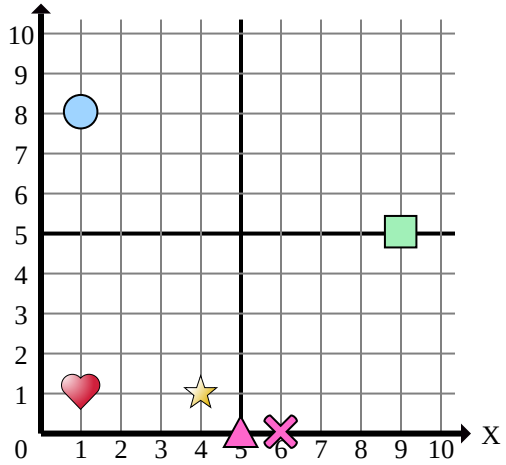

C.

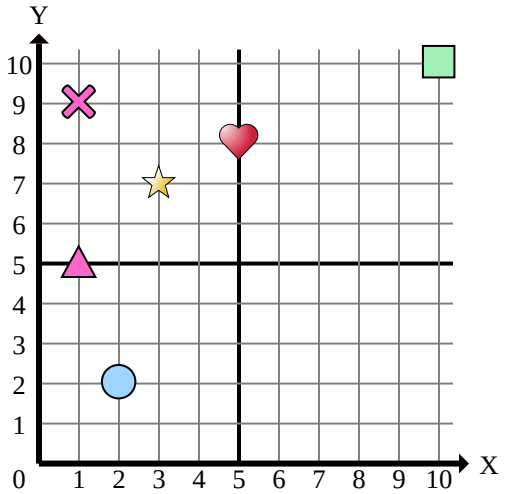

D.

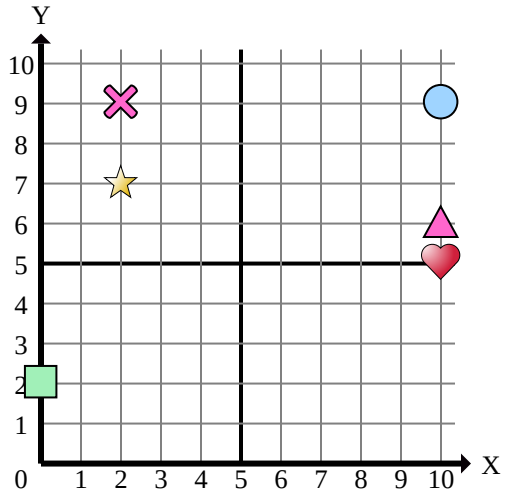

1) ¿Qué coordenadas del plano tiene una forma en (1 , 8)?

2) ¿Qué coordenadas del plano tiene una forma en (0 , 4)?

3) ¿Qué coordenadas del plano tiene una forma en (1 , 1)?

4) ¿Qué coordenadas del plano tiene una forma en (6 , 0)?

5) ¿Qué coordenadas del plano tiene una forma en (10 , 5)?

6) ¿Qué coordenadas del plano tiene una forma en (9 , 5)?

7) ¿Qué coordenadas del plano tiene una forma en (2 , 0)?

8) ¿Qué coordenadas del plano tiene una forma en (6 , 2)?

9) ¿Qué coordenadas del plano tiene una forma en (4 , 2)?

10) ¿Qué coordenadas del plano tiene una forma en (10 , 10)?

11) ¿Qué coordenadas del plano tiene una forma en (8 , 2)?

12) ¿Qué coordenadas del plano tiene una forma en (2 , 7)?

13) ¿Qué coordenadas del plano tiene una forma en (1 , 5)?

14) ¿Qué coordenadas del plano tiene una forma en (6 , 6)?

15) ¿Qué coordenadas del plano tiene una forma en (3 , 7)?

Respuestas

1. _____
2. _____
3. _____
4. _____
5. _____
6. _____
7. _____
8. _____
9. _____
10. _____
11. _____
12. _____
13. _____
14. _____
15. _____

1-10	93	87	80	73	67	60	53	47	40	33
11-15	27	20	13	7	0					

Determinar cuál plano cartesiano corresponde a cada pregunta.

A.

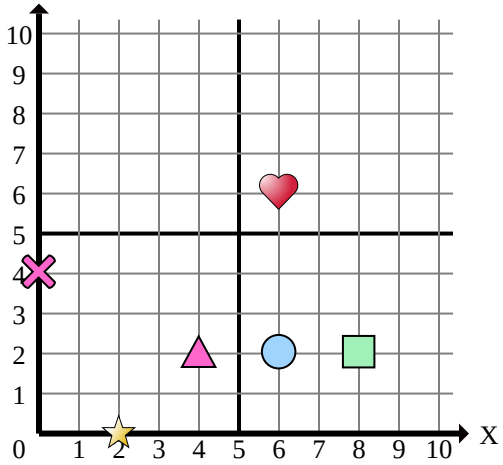

B.

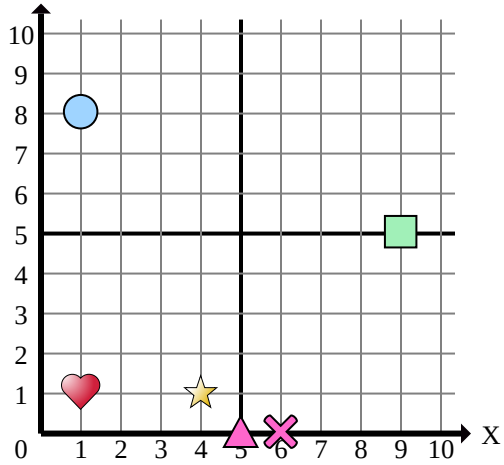

C.

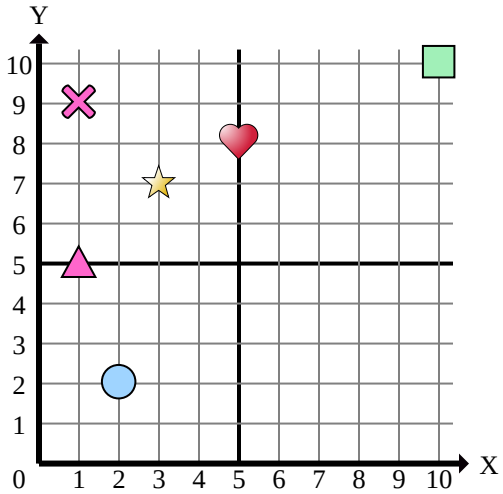

D.

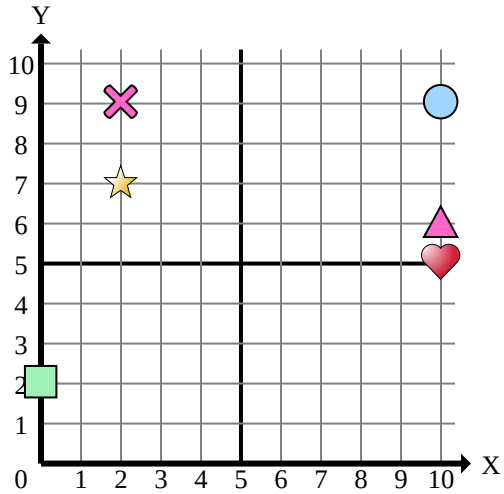

1) ¿Qué coordenadas del plano tiene una forma en (1 , 8)?

2) ¿Qué coordenadas del plano tiene una forma en (0 , 4)?

3) ¿Qué coordenadas del plano tiene una forma en (1 , 1)?

4) ¿Qué coordenadas del plano tiene una forma en (6 , 0)?

5) ¿Qué coordenadas del plano tiene una forma en (10 , 5)?

6) ¿Qué coordenadas del plano tiene una forma en (9 , 5)?

7) ¿Qué coordenadas del plano tiene una forma en (2 , 0)?

8) ¿Qué coordenadas del plano tiene una forma en (6 , 2)?

9) ¿Qué coordenadas del plano tiene una forma en (4 , 2)?

10) ¿Qué coordenadas del plano tiene una forma en (10 , 10)?

11) ¿Qué coordenadas del plano tiene una forma en (8 , 2)?

12) ¿Qué coordenadas del plano tiene una forma en (2 , 7)?

13) ¿Qué coordenadas del plano tiene una forma en (1 , 5)?

14) ¿Qué coordenadas del plano tiene una forma en (6 , 6)?

15) ¿Qué coordenadas del plano tiene una forma en (3 , 7)?

Respuestas

1. **B**
2. **A**
3. **B**
4. **B**
5. **D**
6. **B**
7. **A**
8. **A**
9. **A**
10. **C**
11. **A**
12. **D**
13. **C**
14. **A**
15. **C**

1-10	93	87	80	73	67	60	53	47	40	33
11-15	27	20	13	7	0					