Ubicación del Número negativo en la Recta Numérica

Nombre:

Resuelve cada problema.

1) ¿Qué letra representa mejor -98



2) ¿Qué letra representa mejor -112



3) ¿Qué letra representa mejor -104

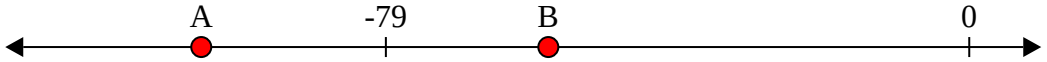

4) ¿Qué letra representa mejor -109



5) ¿Qué letra representa mejor -25



6) ¿Qué letra representa mejor -30



7) ¿Qué letra representa mejor -27



8) ¿Qué letra representa mejor -38

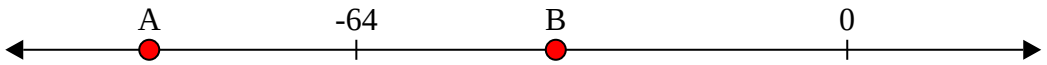

9) ¿Qué letra representa mejor -92



10) ¿Qué letra representa mejor -107



Respuestas

1. _____
2. _____
3. _____
4. _____
5. _____
6. _____
7. _____
8. _____
9. _____
10. _____

1-10	90	80	70	60	50	40	30	20	10	0

Ubicación del Número negativo en la Recta Numérica Nombre: **Clave De Respuestas**

Resuelve cada problema.

1) ¿Qué letra representa mejor -98

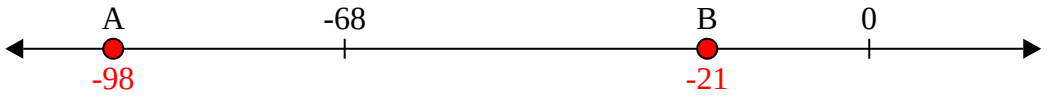

2) ¿Qué letra representa mejor -112

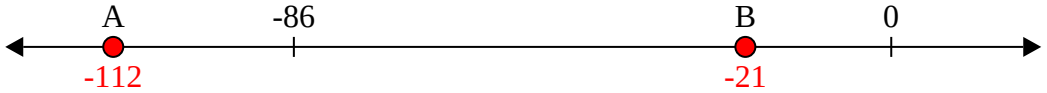

3) ¿Qué letra representa mejor -104

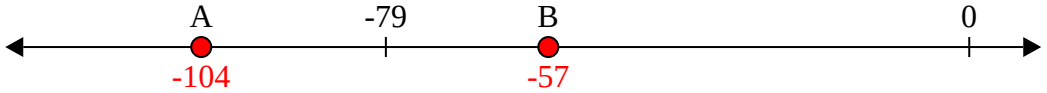

4) ¿Qué letra representa mejor -109

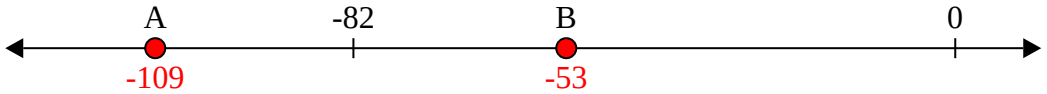

5) ¿Qué letra representa mejor -25

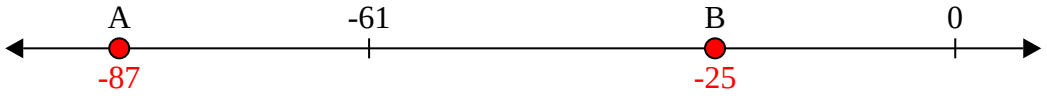

6) ¿Qué letra representa mejor -30

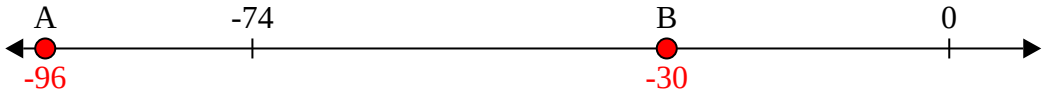

7) ¿Qué letra representa mejor -27

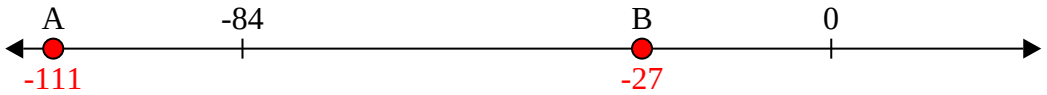

8) ¿Qué letra representa mejor -38

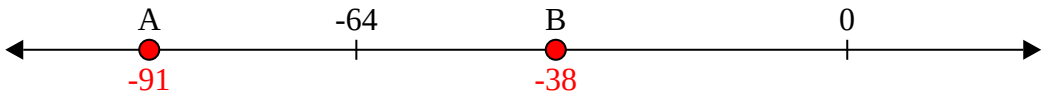

9) ¿Qué letra representa mejor -92

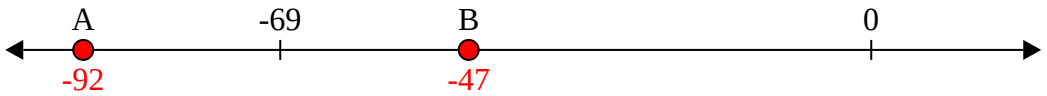

10) ¿Qué letra representa mejor -107

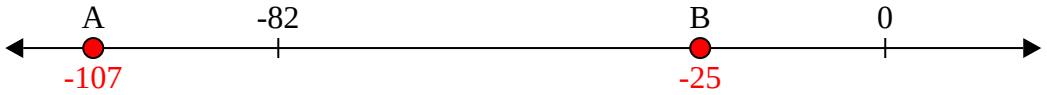

Respuestas

1. **A**
2. **A**
3. **A**
4. **A**
5. **B**
6. **B**
7. **B**
8. **B**
9. **A**
10. **A**

1-10	90	80	70	60	50	40	30	20	10	0