Encontrando razones (Visual)

Nombre:

Resuelve cada problema.

Ej) ¿Cuál es la relación de triangulos a estrellas?

1) ¿Cuál es la relación de circulos a triangulos?

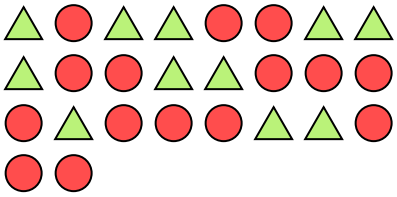

2) ¿Cuál es la relación de pentagonos a moons?

3) ¿Cuál es la relación de cuadros a pentagonos?

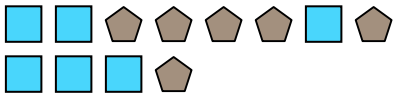

4) ¿Cuál es la relación de moons a hearts?



5) ¿Cuál es la relación de circulos a pentagonos?

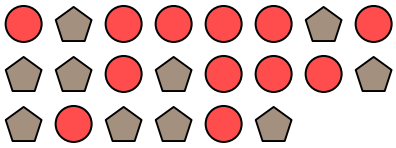

6) ¿Cuál es la relación de triangulos a estrellas?

7) ¿Cuál es la relación de hearts a circulos?



8) ¿Cuál es la relación de hearts a circulos?



9) ¿Cuál es la relación de hearts a circulos?



10) ¿Cuál es la relación de cuadros a moons?



11) ¿Cuál es la relación de triangulos a pentagonos?

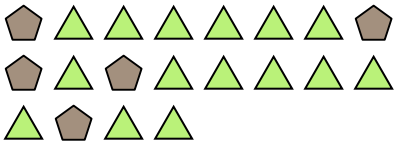

Respuestas

Ej. 3:9

1. _____
2. _____
3. _____
4. _____
5. _____
6. _____
7. _____
8. _____
9. _____
10. _____
11. _____

1-10	91	82	73	64	55	45	36	27	18	9
11	0									

Nombre: **Clave De Respuestas**

Resuelve cada problema.

Ej) ¿Cuál es la relación de triangulos a estrellas?

1) ¿Cuál es la relación de circulos a triangulos?

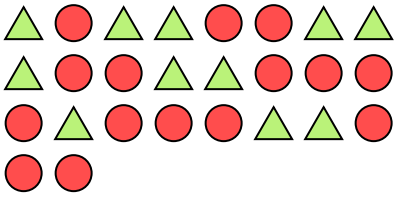

2) ¿Cuál es la relación de pentagonos a moons?

3) ¿Cuál es la relación de cuadros a pentagonos?

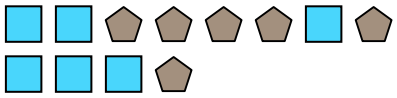

4) ¿Cuál es la relación de moons a hearts?



5) ¿Cuál es la relación de circulos a pentagonos?

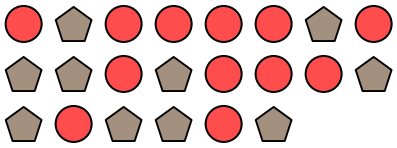

6) ¿Cuál es la relación de triangulos a estrellas?

7) ¿Cuál es la relación de hearts a circulos?



8) ¿Cuál es la relación de hearts a circulos?



9) ¿Cuál es la relación de hearts a circulos?



10) ¿Cuál es la relación de cuadros a moons?



11) ¿Cuál es la relación de triangulos a pentagonos?

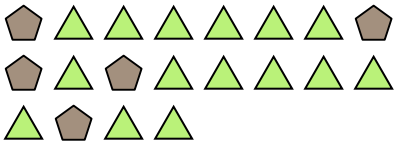

Respuestas

Ej.	3:9
1.	15:11
2.	4:11
3.	6:6
4.	8:14
5.	12:10
6.	6:4
7.	8:11
8.	15:8
9.	5:9
10.	6:13
11.	15:5

1-10	91	82	73	64	55	45	36	27	18	9
11	0									