Hallar el tiempo de finalización en una recta numérica

Nombre:

Resuelve cada problema.

1) Inicio: 2:15
Transcurrido: 1 hr y 40 mins
Final: _____

2) Inicio: 2:10
Transcurrido: 2 hrs y 45 mins
Final: _____

3) Inicio: 2:45
Transcurrido: 2 hrs y 10 mins
Final: _____

4) Inicio: 2:20
Transcurrido: 1 hr y 20 mins
Final: _____

5) Inicio: 11:05
Transcurrido: 2 hrs y 25 mins
Final: _____

6) Inicio: 11:05
Transcurrido: 2 hrs y 20 mins
Final: _____

7) Inicio: 3:45
Transcurrido: 2 hrs y 20 mins
Final: _____

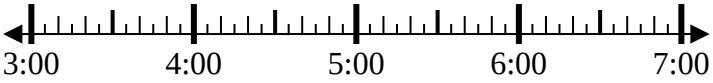

8) Inicio: 6:20
Transcurrido: 1 hr y 30 mins
Final: _____

Respuestas

1. _____
2. _____
3. _____
4. _____
5. _____
6. _____
7. _____
8. _____

1-8	88	75	63	50	38	25	13	0

Hallar el tiempo de finalización en una recta numérica

Nombre: **Clave De Respuestas**

Resuelve cada problema.

1) Inicio: 2:15
Transcurrido: 1 hr y 40 mins
Final: 3:55

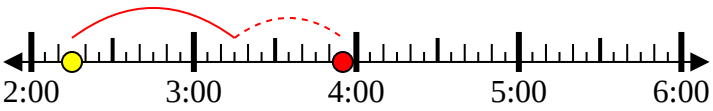

2) Inicio: 2:10
Transcurrido: 2 hrs y 45 mins
Final: 4:55

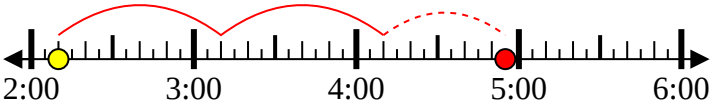

3) Inicio: 2:45
Transcurrido: 2 hrs y 10 mins
Final: 4:55

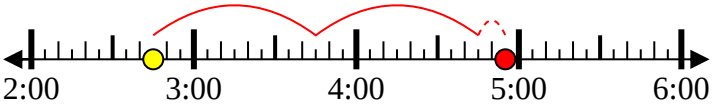

4) Inicio: 2:20
Transcurrido: 1 hr y 20 mins
Final: 3:40

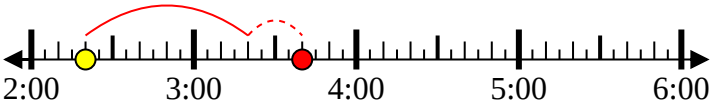

5) Inicio: 11:05
Transcurrido: 2 hrs y 25 mins
Final: 1:30

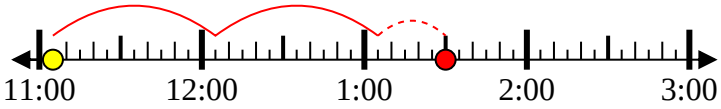

6) Inicio: 11:05
Transcurrido: 2 hrs y 20 mins
Final: 1:25

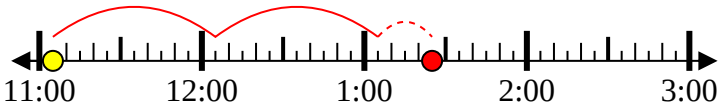

7) Inicio: 3:45
Transcurrido: 2 hrs y 20 mins
Final: 6:05

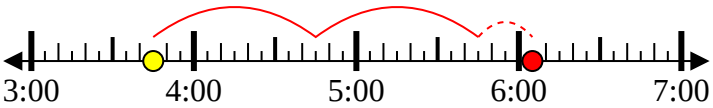

8) Inicio: 6:20
Transcurrido: 1 hr y 30 mins
Final: 7:50

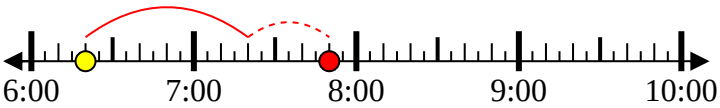

Respuestas

1. **3:55**
2. **4:55**
3. **4:55**
4. **3:40**
5. **1:30**
6. **1:25**
7. **6:05**
8. **7:50**

1-8	88	75	63	50	38	25	13	0