Determinando fracciones Visualmente

Nombre:

Determina cuál opción mejor responde a cada pregunta.

1) ¿Cuál de las figuras de abajo está sombreada para representar $^{4}/_{6}$?

A.
B.
C.
D.

2) ¿Cuál de las figuras de abajo está sombreada para representar $^{7}/_{10}$?

A. 
B.
C.
D. 

3) ¿Cuál de las figuras de abajo está sombreada para representar $^{2}/_{8}$?

A. 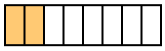
B.
C. 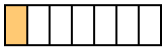
D. 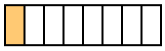

4) ¿Cuál de las figuras de abajo está sombreada para representar $^{2}/_{4}$?

A.
B.
C.
D.

5) ¿Cuál de las figuras de abajo está sombreada para representar $^{4}/_{10}$?

A.
B.
C.
D.

6) ¿Cuál de las figuras de abajo está sombreada para representar $^{3}/_{5}$?

A.
B.
C.
D.

7) ¿Cuál de las figuras de abajo está sombreada para representar $^{6}/_{8}$?

A.
B.
C.
D.

8) ¿Cuál de las figuras de abajo está sombreada para representar $^{5}/_{8}$?

A.
B.
C.
D.

9) ¿Cuál de las figuras de abajo está sombreada para representar $^{3}/_{7}$?

A. B. C. D.

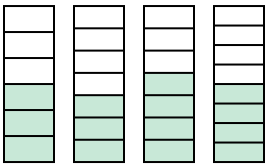

10) ¿Cuál de las figuras de abajo está sombreada para representar $^{4}/_{7}$?

A. B. C. D.

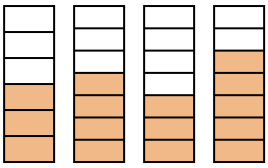

Respuestas

1. _____
2. _____
3. _____
4. _____
5. _____
6. _____
7. _____
8. _____
9. _____
10. _____

1-10	90	80	70	60	50	40	30	20	10	0

Determina cuál opción mejor responde a cada pregunta.

1) ¿Cuál de las figuras de abajo está sombreada para representar $^{4}/_{6}$?

A.
B.
C.
D.

2) ¿Cuál de las figuras de abajo está sombreada para representar $^{7}/_{10}$?

A. 
B.
C.
D. 

3) ¿Cuál de las figuras de abajo está sombreada para representar $^{2}/_{8}$?

A. 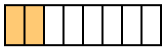
B.
C. 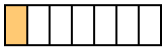
D. 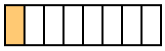

4) ¿Cuál de las figuras de abajo está sombreada para representar $^{2}/_{4}$?

A.
B.
C.
D.

5) ¿Cuál de las figuras de abajo está sombreada para representar $^{4}/_{10}$?

A.
B.
C.
D.

6) ¿Cuál de las figuras de abajo está sombreada para representar $^{3}/_{5}$?

A.
B.
C.
D.

7) ¿Cuál de las figuras de abajo está sombreada para representar $^{6}/_{8}$?

A.
B.
C.
D.

8) ¿Cuál de las figuras de abajo está sombreada para representar $^{5}/_{8}$?

A.
B.
C.
D.

9) ¿Cuál de las figuras de abajo está sombreada para representar $^{3}/_{7}$?

A. B. C. D.

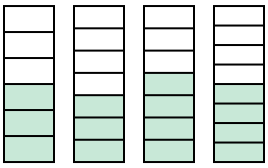

10) ¿Cuál de las figuras de abajo está sombreada para representar $^{4}/_{7}$?

A. B. C. D.

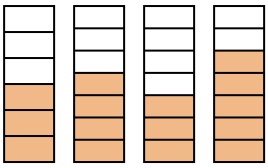

Respuestas

1. **B**
2. **C**
3. **A**
4. **A**
5. **C**
6. **B**
7. **A**
8. **B**
9. **B**
10. **B**

1-10	90	80	70	60	50	40	30	20	10	0