Dividiendo en Fracciones Unitarias (Visualmente)

Nombre:

Resuelve cada problema marcando las fracciones. El primer ejercicio ha sido resuelto como ejemplo.

Ej) $6 \div \frac{1}{2} =$? Esto es lo mismo que decir: ¿Cuántas $\frac{1}{2}$ hay en 6 enteros?

1 Entero	1 Entero	1 Entero	1 Entero	1 Entero	1 Entero

1) $3 \div \frac{1}{6} =$

1 Entero	1 Entero	1 Entero

2) $6 \div \frac{1}{6} =$

1 Entero	1 Entero	1 Entero	1 Entero	1 Entero	1 Entero

3) $2 \div \frac{1}{2} =$

1 Entero	1 Entero

4) $2 \div \frac{1}{7} =$

1 Entero	1 Entero

5) $6 \div \frac{1}{4} =$

1 Entero	1 Entero	1 Entero	1 Entero	1 Entero	1 Entero

6) $6 \div \frac{1}{7} =$

1 Entero	1 Entero	1 Entero	1 Entero	1 Entero	1 Entero

7) $4 \div \frac{1}{2} =$

1 Entero	1 Entero	1 Entero	1 Entero

8) $2 \div \frac{1}{3} =$

1 Entero	1 Entero

9) $3 \div \frac{1}{3} =$

1 Entero	1 Entero	1 Entero

Respuestas

Ej. 12

1. _____
2. _____
3. _____
4. _____
5. _____
6. _____
7. _____
8. _____
9. _____

Dividiendo en Fracciones Unitarias (Visualmente) Nombre: **Clave De Respuestas**

Resuelve cada problema marcando las fracciones. El primer ejercicio ha sido resuelto como ejemplo.

Ej) $6 \div \frac{1}{2} = ?$ Esto es lo mismo que decir: ¿Cuántas $\frac{1}{2}$ hay en 6 enteros?

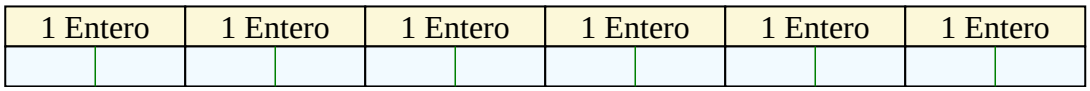

1) $3 \div \frac{1}{6} =$ Esto es lo mismo que decir: ¿Cuántas $\frac{1}{6}$ hay en 3 enteros?

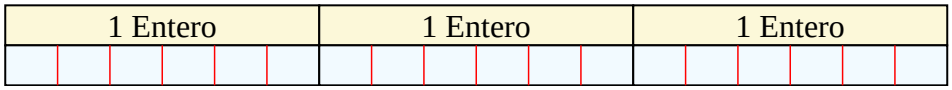

2) $6 \div \frac{1}{6} =$ Esto es lo mismo que decir: ¿Cuántas $\frac{1}{6}$ hay en 6 enteros?

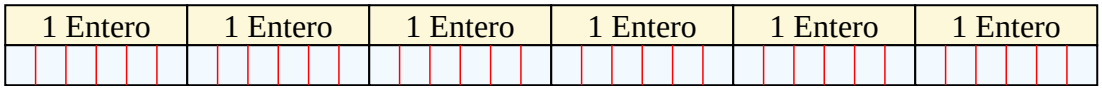

3) $2 \div \frac{1}{2} =$ Esto es lo mismo que decir: ¿Cuántas $\frac{1}{2}$ hay en 2 enteros?

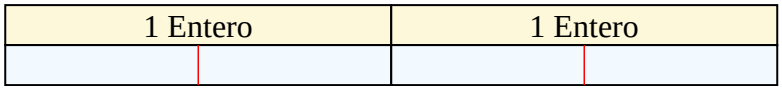

4) $2 \div \frac{1}{7} =$ Esto es lo mismo que decir: ¿Cuántas $\frac{1}{7}$ hay en 2 enteros?

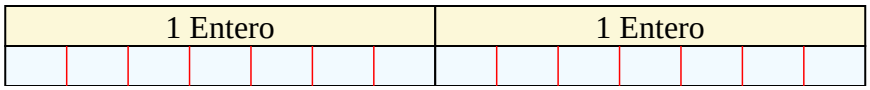

5) $6 \div \frac{1}{4} =$ Esto es lo mismo que decir: ¿Cuántas $\frac{1}{4}$ hay en 6 enteros?

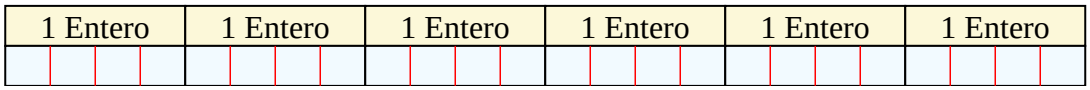

6) $6 \div \frac{1}{7} =$ Esto es lo mismo que decir: ¿Cuántas $\frac{1}{7}$ hay en 6 enteros?

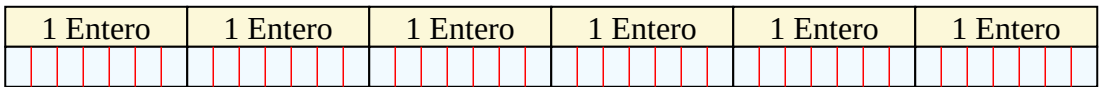

7) $4 \div \frac{1}{2} =$ Esto es lo mismo que decir: ¿Cuántas $\frac{1}{2}$ hay en 4 enteros?

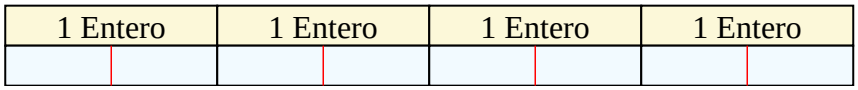

8) $2 \div \frac{1}{3} =$ Esto es lo mismo que decir: ¿Cuántas $\frac{1}{3}$ hay en 2 enteros?

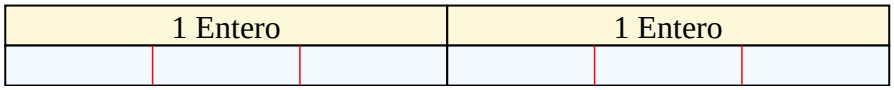

9) $3 \div \frac{1}{3} =$ Esto es lo mismo que decir: ¿Cuántas $\frac{1}{3}$ hay en 3 enteros?

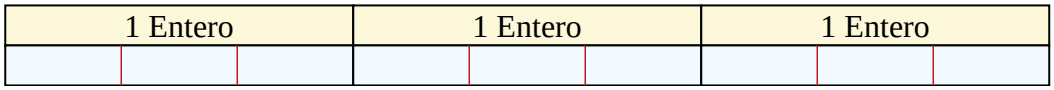

Respuestas

Ej.	12
1.	18
2.	36
3.	4
4.	14
5.	24
6.	42
7.	8
8.	6
9.	9