Identificar fracciones y decimales en un círculo numérico

Nombre:

Resuelve cada problema.

1) ¿Qué opción representa la parte sombreada de la rueda numérica?

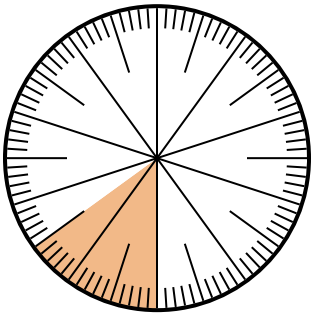

A. $^{1.5}/_{100}$ B. $^{85}/_{15}$

C. 0.015 D. $^{15}/_{100}$

2) ¿Qué opción representa la parte no sombreada de la rueda numérica?

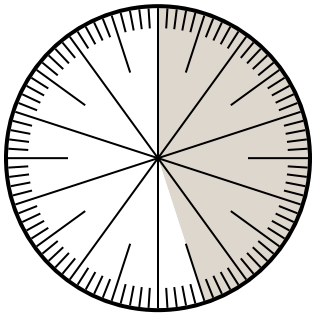

A. 5.50 B. 0.55

C. $^{5.50}/_{100}$ D. 55

3) ¿Qué opción representa la parte no sombreada de la rueda numérica?

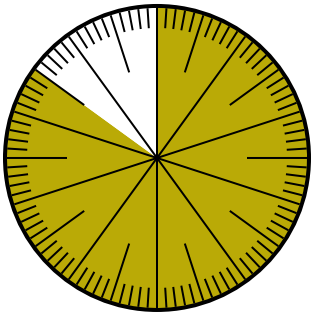

A. 15 B. 1.5

C. 1.50 D. $^{15}/_{100}$

4) ¿Qué opción representa la parte sombreada de la rueda numérica?

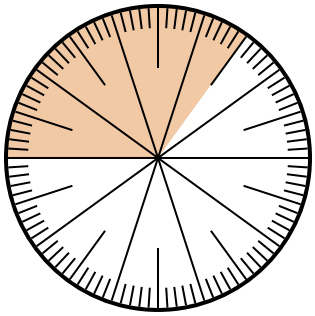

A. $^{3.50}/_{100}$ B. $^{65}/_{35}$

C. 0.35 D. $^{35}/_{65}$

5) ¿Qué opción representa la parte no sombreada de la rueda numérica?

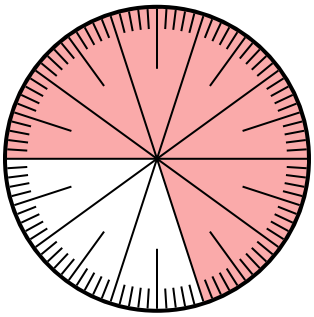

A. 3.00 B. $^{30}/_{100}$

C. $^{70}/_{10}$ D. 7.00

6) ¿Qué opción representa la parte sombreada de la rueda numérica?

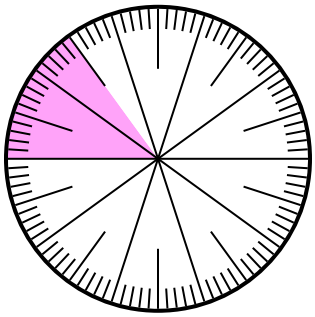

A. $^{1.50}/_{100}$ B. 0.15

C. 1.50 D. 0.015

Respuestas

1. _____
2. _____
3. _____
4. _____
5. _____
6. _____

Identificar fracciones y decimales en un círculo numérico Nombre: **Clave De Respuestas**

Resuelve cada problema.

1) ¿Qué opción representa la parte sombreada de la rueda numérica?

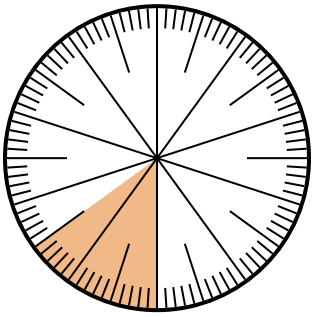

A. $^{1.5}/_{100}$ B. $^{85}/_{15}$

C. 0.015 D. $^{15}/_{100}$

2) ¿Qué opción representa la parte no sombreada de la rueda numérica?

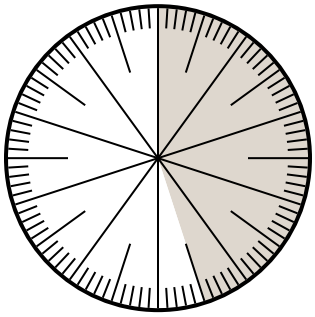

A. 5.50 B. 0.55

C. $^{5.50}/_{100}$ D. 55

3) ¿Qué opción representa la parte no sombreada de la rueda numérica?

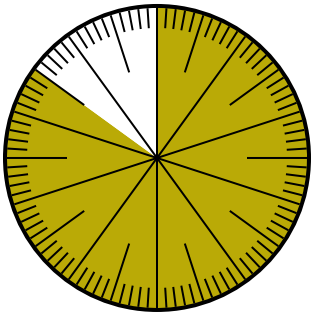

A. 15 B. 1.5

C. 1.50 D. $^{15}/_{100}$

4) ¿Qué opción representa la parte sombreada de la rueda numérica?

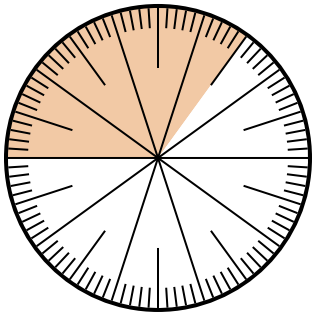

A. $^{3.50}/_{100}$ B. $^{65}/_{35}$

C. 0.35 D. $^{35}/_{65}$

5) ¿Qué opción representa la parte no sombreada de la rueda numérica?

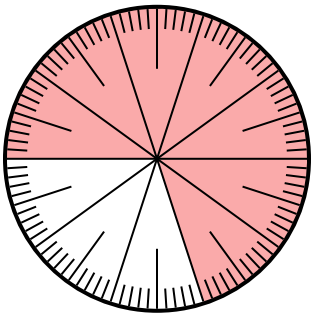

A. 3.00 B. $^{30}/_{100}$

C. $^{70}/_{10}$ D. 7.00

6) ¿Qué opción representa la parte sombreada de la rueda numérica?

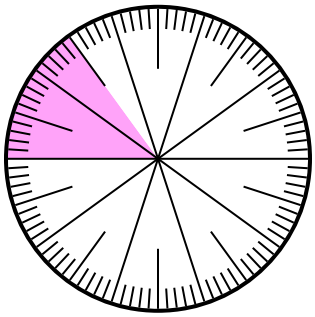

A. $^{1.50}/_{100}$ B. 0.15

C. 1.50 D. 0.015

Respuestas

1. **D**
2. **B**
3. **D**
4. **C**
5. **B**
6. **B**

1-6	83	67	50	33	17	0