Nombrando Fracciones

Nombre:

Determina cuál letra mejor describe a la porción sombreada.

1)

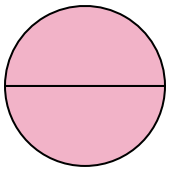

A. dos mitades
B. un cuarto
C. dos cuartos

2)



A. una mitad
B. tres cuartos
C. dos mitades

3)

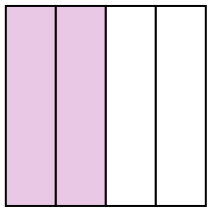

A. dos cuartos
B. un cuarto
C. tres cuartos

4)

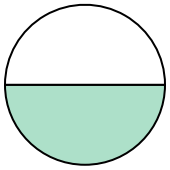

A. dos cuartos
B. tres cuartos
C. una mitad

5)

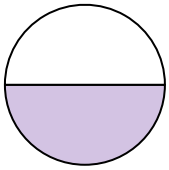

A. tres cuartos
B. una mitad
C. dos cuartos

6)



A. un cuarto
B. dos cuartos
C. tres cuartos

7)

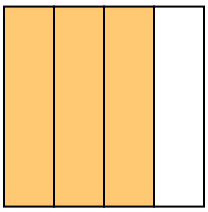

A. dos cuartos
B. cuatro cuartos
C. tres cuartos

8)

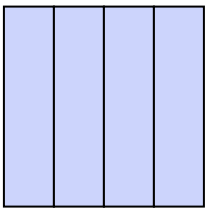

A. dos cuartos
B. una mitad
C. cuatro cuartos

9)

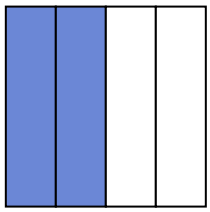

A. dos mitades
B. dos cuartos
C. un cuarto

Respuestas

1. _____
2. _____
3. _____
4. _____
5. _____
6. _____
7. _____
8. _____
9. _____

1-9	89	78	67	56	44	33	22	11	0

Nombre: **Clave De Respuestas**

Determina cuál letra mejor describe a la porción sombreada.

1)

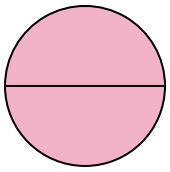

A. dos mitades
B. un cuarto
C. dos cuartos

2)



A. una mitad
B. tres cuartos
C. dos mitades

3)

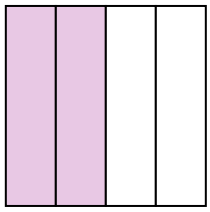

A. dos cuartos
B. un cuarto
C. tres cuartos

4)

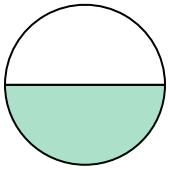

A. dos cuartos
B. tres cuartos
C. una mitad

5)

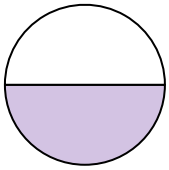

A. tres cuartos
B. una mitad
C. dos cuartos

6)



A. un cuarto
B. dos cuartos
C. tres cuartos

7)

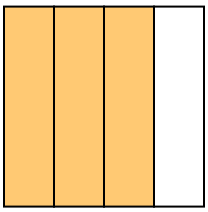

A. dos cuartos
B. cuatro cuartos
C. tres cuartos

8)

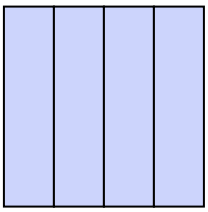

A. dos cuartos
B. una mitad
C. cuatro cuartos

9)

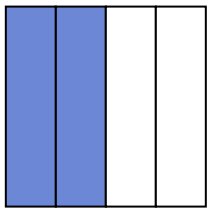

A. dos mitades
B. dos cuartos
C. un cuarto

Respuestas

1. **A**
2. **C**
3. **A**
4. **C**
5. **B**
6. **C**
7. **C**
8. **C**
9. **B**

1-9	89	78	67	56	44	33	22	11	0