Partición y etiquetado de fracciones en la recta numérica Nombre:

Resuelve cada problema.

1) Divida en 6 partes iguales y etiquete cada partición.

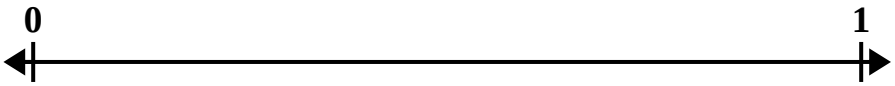

2) Divida en 2 partes iguales y etiquete cada partición.



3) Divida en 8 partes iguales y etiquete cada partición.



4) Divida en 4 partes iguales y etiquete cada partición.



5) Divida en 3 partes iguales y etiquete cada partición.



Partición y etiquetado de fracciones en la recta numérica Nombre: **Clave De Respuestas**

Resuelve cada problema.

1) Divida en 6 partes iguales y etiquete cada partición.

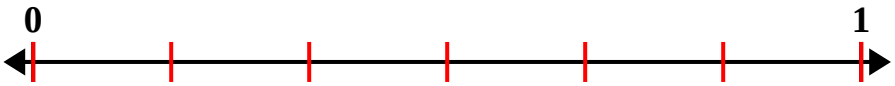

2) Divida en 2 partes iguales y etiquete cada partición.

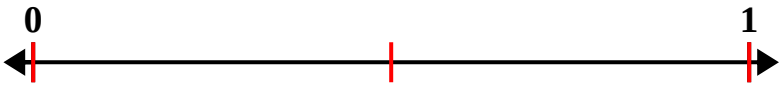

3) Divida en 8 partes iguales y etiquete cada partición.

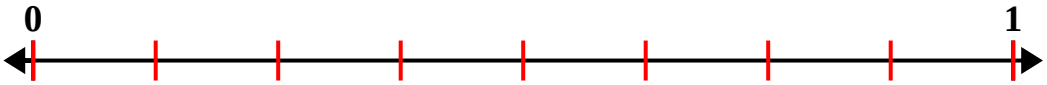

4) Divida en 4 partes iguales y etiquete cada partición.

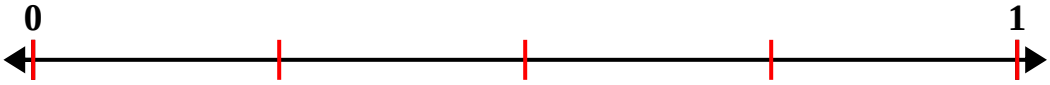

5) Divida en 3 partes iguales y etiquete cada partición.