Determina qué afirmaciones sobre la gráfica son verdaderas.

Respuestas

1. _____
2. _____
3. _____

1)

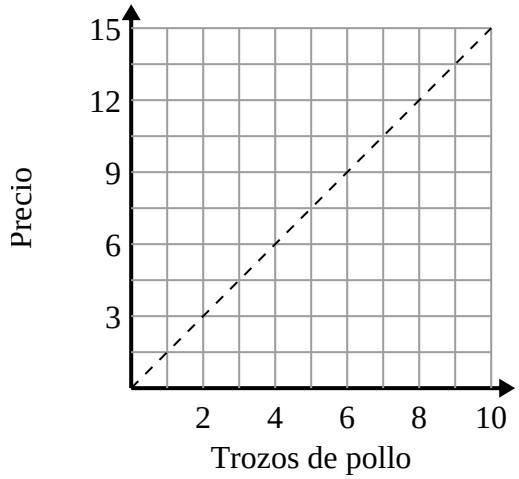

A. El punto (3 , 4.5) muestra que con $4.5 puedes comprar 3 trozos de pollo.

B. El punto (8 , 12) muestra que con $12 puedes comprar 8 trozos de pollo.

C. El punto ({PUNTO}) muestra que 9 piezas de pollo costarán $13.5.

D. El punto (10.5 , 7) muestra que con $10.5 puedes comprar 7 trozos de pollo.

2)

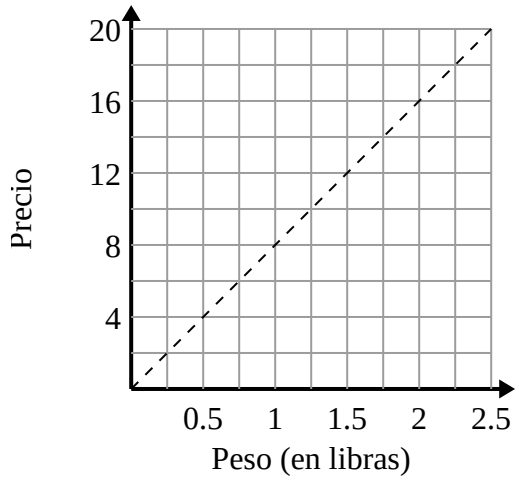

A. El punto (10 , 1.25) muestra que 1.25 libras costarán $ 10.

B. El punto (1 , 8) muestra que 1 libras costarán $ 8.

C. El punto (2 , 16) muestra que costaría $16 por 2 libras.

D. El punto (14 , 1.75) muestra que 1.75 libras costarán $ 14.

3)

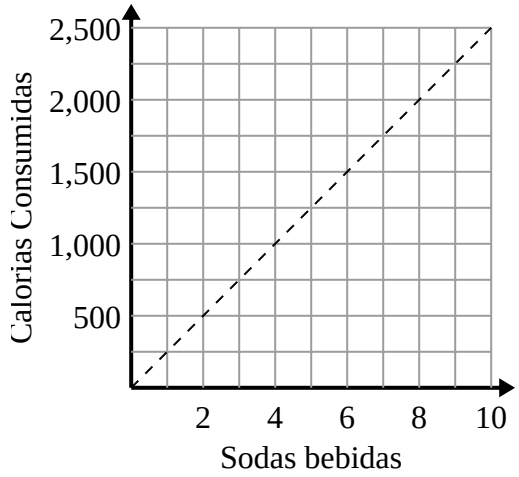

A. El punto (1250 , 5) muestra que para consumir 1250 calorías tendrías que beber 5 refrescos.

B. El punto (3 , 750) muestra que para consumir 750 calorías tendrías que beber 3 refrescos.

C. El punto (500 , 2) muestra que para consumir 500 calorías tendrías que beber 2 refrescos.

D. El punto (5 , 1250) muestra que para consumir 1250 calorías tendrías que beber 5 refrescos.

1-3	67	33	0

Determina qué afirmaciones sobre la gráfica son verdaderas.

1)

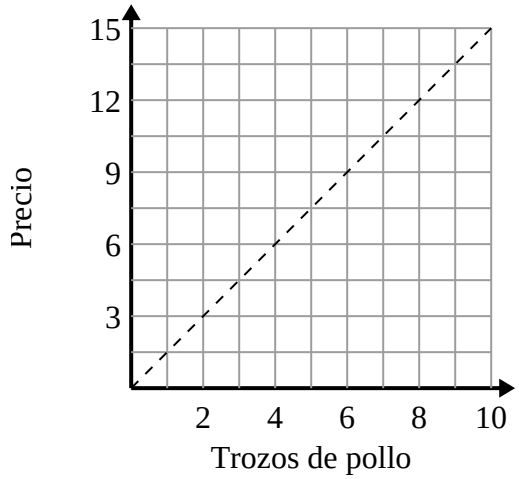

A. El punto (3 , 4.5) muestra que con $4.5 puedes comprar 3 trozos de pollo.

B. El punto (8 , 12) muestra que con $12 puedes comprar 8 trozos de pollo.

C. El punto ({PUNTO}) muestra que 9 piezas de pollo costarán $13.5.

D. El punto (10.5 , 7) muestra que con $10.5 puedes comprar 7 trozos de pollo.

2)

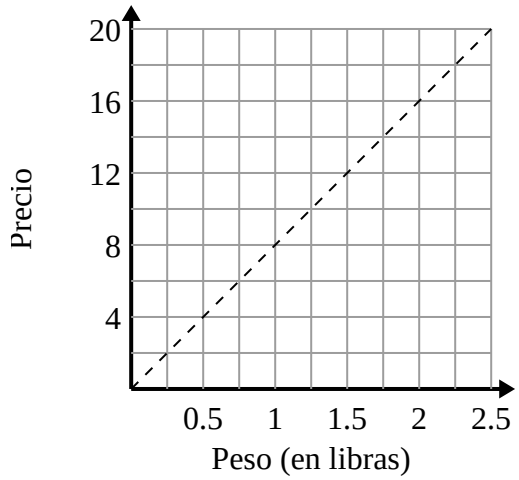

A. El punto (10 , 1.25) muestra que 1.25 libras costarán $ 10.

B. El punto (1 , 8) muestra que 1 libras costarán $ 8.

C. El punto (2 , 16) muestra que costaría $16 por 2 libras.

D. El punto (14 , 1.75) muestra que 1.75 libras costarán $ 14.

3)

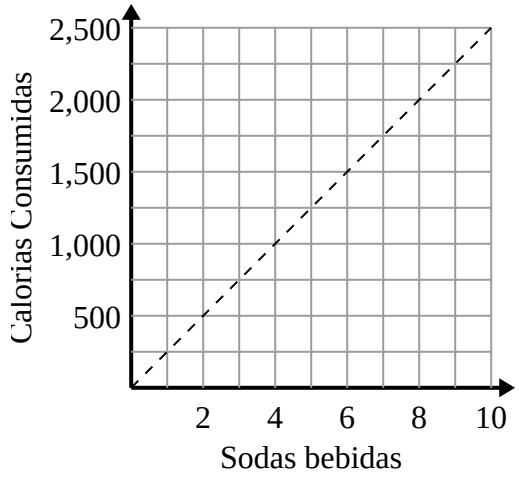

A. El punto (1250 , 5) muestra que para consumir 1250 calorías tendrías que beber 5 refrescos.

B. El punto (3 , 750) muestra que para consumir 750 calorías tendrías que beber 3 refrescos.

C. El punto (500 , 2) muestra que para consumir 500 calorías tendrías que beber 2 refrescos.

D. El punto (5 , 1250) muestra que para consumir 1250 calorías tendrías que beber 5 refrescos.

Respuestas

1. **A,B,C**
2. **B,C**
3. **B,D**

1-3	67	33	0