Reflejar cada figura como se describe.

Respuestas

1. ___ ___ ___ ___

2. ___ ___ ___ ___ ___

3. ___ ___ ___ ___

4. ___ ___ ___ ___ ___

1)

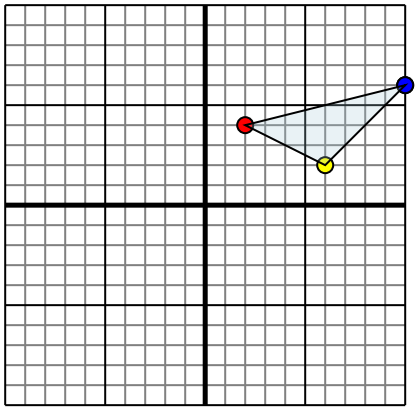

La forma anterior tiene las siguientes coordenadas:

A. (2,4)

B. (6,2)

C. (10,6)

Reflejar la forma sobre el eje x.

2)

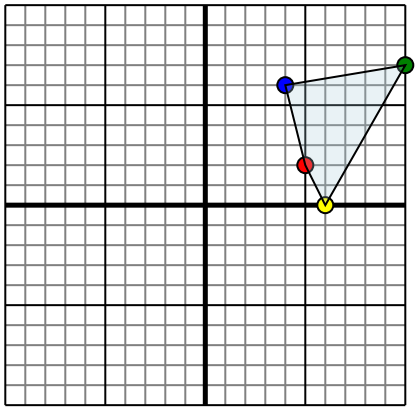

La forma anterior tiene las siguientes coordenadas:

A. (5,2)

B. (6,0)

C. (10,7)

D. (4,6)

Reflejar la forma sobre el eje y.

3)

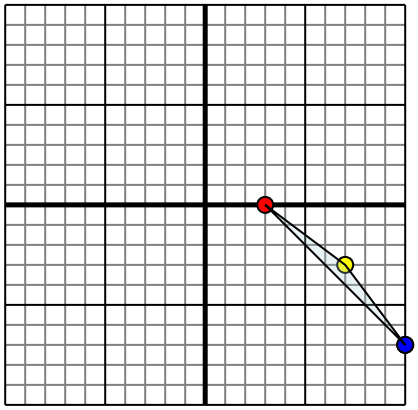

La forma anterior tiene las siguientes coordenadas:

A. (3,0)

B. (7,-3)

C. (10,-7)

Reflejar la forma sobre el eje x.

4)

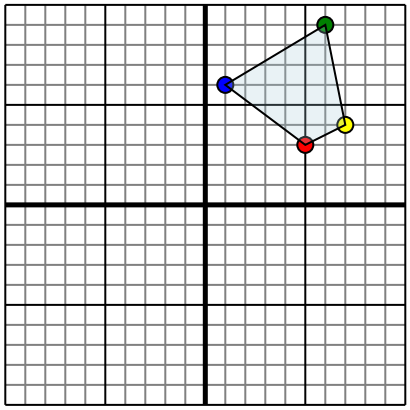

La forma anterior tiene las siguientes coordenadas:

A. (5,3)

B. (7,4)

C. (6,9)

D. (1,6)

Reflejar la forma sobre el eje y.

1-4	75	50	25	0

Reflejar cada figura como se describe.

1)

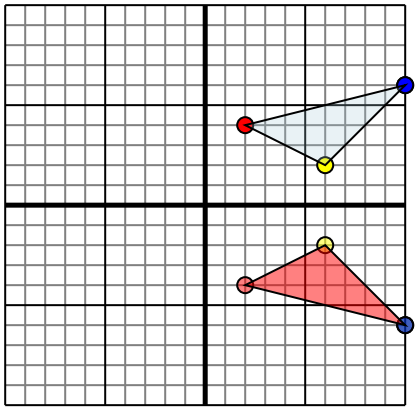

La forma anterior tiene las siguientes coordenadas:

A. (2,4)

B. (6,2)

C. (10,6)

Reflejar la forma sobre el eje x.

2)

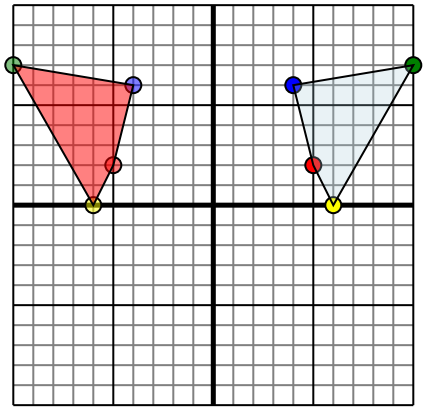

La forma anterior tiene las siguientes coordenadas:

A. (5,2)

B. (6,0)

C. (10,7)

D. (4,6)

Reflejar la forma sobre el eje y.

3)

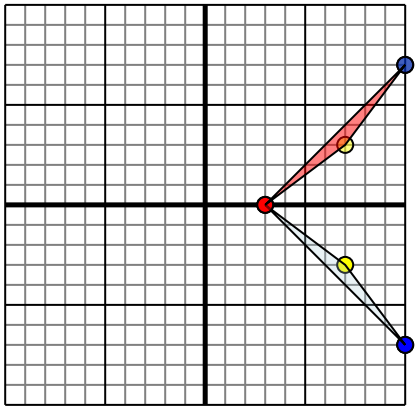

La forma anterior tiene las siguientes coordenadas:

A. (3,0)

B. (7,-3)

C. (10,-7)

Reflejar la forma sobre el eje x.

4)

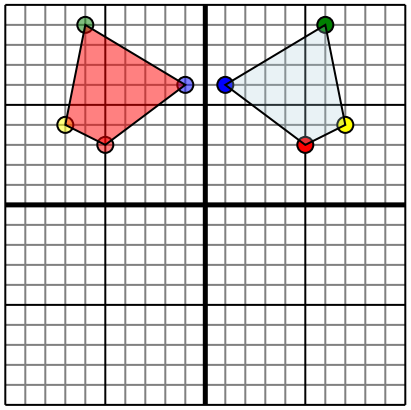

La forma anterior tiene las siguientes coordenadas:

A. (5,3)

B. (7,4)

C. (6,9)

D. (1,6)

Reflejar la forma sobre el eje y.

Respuestas

1. 2,-4 6,-2 10,-6 gráfica
2. -5,2 -6,0 -10,7 -4,6 gráfica
3. 3,0 7,3 10,7 gráfica
4. -5,3 -7,4 -6,9 -1,6 gráfica

1-4	75	50	25	0