Usar cuadrículas en el contexto del mundo real

Nombre:

Usa la cuadrícula para resolver cada problema.

= Gasolinera

= Centro comercial

= 1 Square Milla

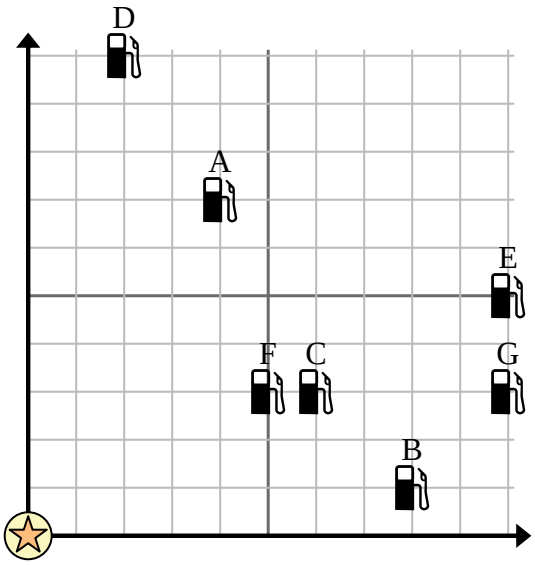

1) Los inversores querían construir una nueva estación de servicio, pero querían asegurarse de que estuviera al menos a 2 millas de una estación preexistente. ¿Deberían construir una gasolinera a 2 millas al este y 4 millas al norte del centro comercial?

2) ¿Qué gasolinera está más cerca del centro comercial?

3) ¿Qué gasolinera está más lejos del centro comercial?

4) ¿Qué gasolinera está más lejos de east? ¿Estación C o estación G?

5) Si fueras 6 millas al este y 3 millas al norte desde el centro comercial, ¿en qué gasolinera terminarías?

6) Un barco nuevo quería pescar, pero el capitán quería asegurarse de que estuvieran al menos a 2 millas de otro barco. Si navegaba 5 millas al este y 2 millas al norte, ¿le vendría bien ese lugar?

= Barco

= Boya

= 1 Square Milla

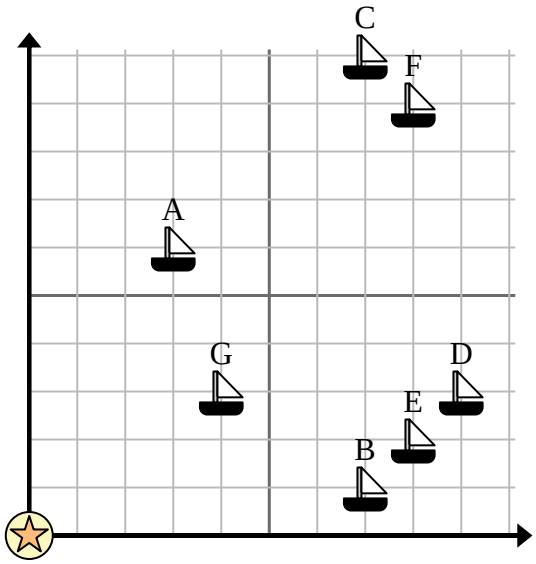

7) ¿Qué barco está más cerca de la boya?

8) ¿Qué barco está más lejos de la boya?

9) ¿Qué barco está más lejos de north? ¿Enviar C o enviar G?

10) ¿Qué barco está a 9 millas al este y 3 millas al norte de la boya?

Respuestas

1. _____
2. _____
3. _____
4. _____
5. _____
6. _____
7. _____
8. _____
9. _____
10. _____

1-10	90	80	70	60	50	40	30	20	10	0

Usar cuadrículas en el contexto del mundo real

Nombre: **Clave De Respuestas**

Usa la cuadrícula para resolver cada problema.

= Gasolinera

= Centro comercial

= 1 Square Milla

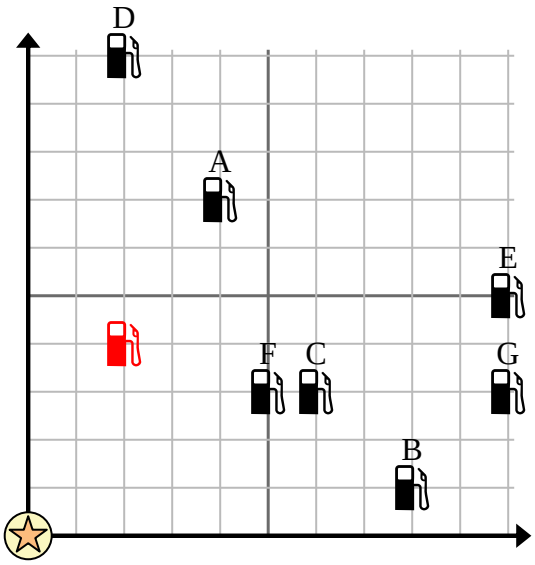

1) Los inversores querían construir una nueva estación de servicio, pero querían asegurarse de que estuviera al menos a 2 millas de una estación preexistente. ¿Deberían construir una gasolinera a 2 millas al este y 4 millas al norte del centro comercial?

2) ¿Qué gasolinera está más cerca del centro comercial?

3) ¿Qué gasolinera está más lejos del centro comercial?

4) ¿Qué gasolinera está más lejos de east? ¿Estación C o estación G?

5) Si fueras 6 millas al este y 3 millas al norte desde el centro comercial, ¿en qué gasolinera terminarías?

6) Un barco nuevo quería pescar, pero el capitán quería asegurarse de que estuvieran al menos a 2 millas de otro barco. Si navegaba 5 millas al este y 2 millas al norte, ¿le vendría bien ese lugar?

= Barco

= Boya

= 1 Square Milla

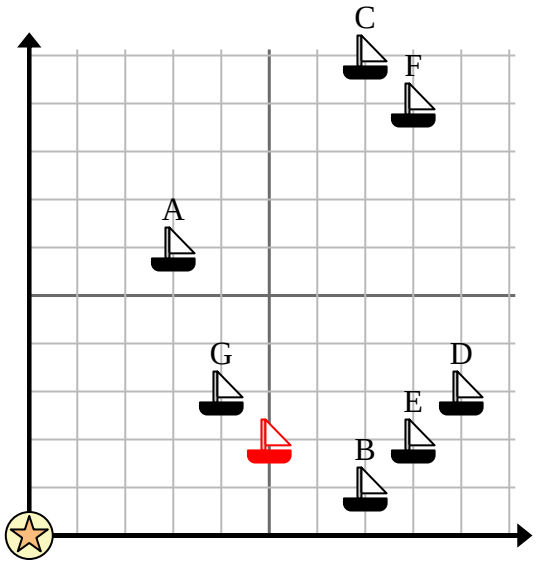

7) ¿Qué barco está más cerca de la boya?

8) ¿Qué barco está más lejos de la boya?

9) ¿Qué barco está más lejos de north? ¿Enviar C o enviar G?

10) ¿Qué barco está a 9 millas al este y 3 millas al norte de la boya?

Respuestas

1. si
2. F
3. E
4. G
5. C
6. no
7. G
8. C
9. C
10. D

1-10	90	80	70	60	50	40	30	20	10	0