Contar el cambio (hasta un dólar) Nombre:

Determine la cantidad de dinero que se muestra.

1)

2)

3)

4) 

5)

6)

7)

8)

9) 

10)

Respuestas

1. _____
2. _____
3. _____
4. _____
5. _____
6. _____
7. _____
8. _____
9. _____
10. _____

1-10	90	80	70	60	50	40	30	20	10	0

Contar el cambio (hasta un dólar) Nombre: **Clave De Respuestas**

Determine la cantidad de dinero que se muestra.

1)

2)

3)

4) 

5)

6)

7)

8)

9) 

10)

Respuestas

1. **$0.96**
2. **$0.95**
3. **$0.88**
4. **$0.97**
5. **$0.99**
6. **$0.76**
7. **$0.91**
8. **$0.99**
9. **$0.97**
10. **$0.85**

1-10	90	80	70	60	50	40	30	20	10	0