Dibuja una línea con diferente tasa de cambio

Nombre:

Dibuje su línea y luego responda con la pendiente.

1) Sketch a line with a Y intercept of 6 and a smaller rate of change than: $Y = {}^{-6}/_{-1} + 6$



2) Dibuje una línea con una intersección en Y de 9 y una tasa de cambio mayor que: $Y = {}^{-1}/_{9} + 9$



3) Dibuje una línea con una intersección en Y de -9 y una tasa de cambio mayor que: $Y = {}^{-4}/_{6} - 9$



4) Dibuje una línea con una intersección en Y de -3 y una tasa de cambio mayor que: $Y = {}^{-4}/_{-2} - 3$



5) Dibuje una línea con una intersección en Y de 6 y una tasa de cambio mayor que: $Y = {}^{-4}/_{6} + 6$

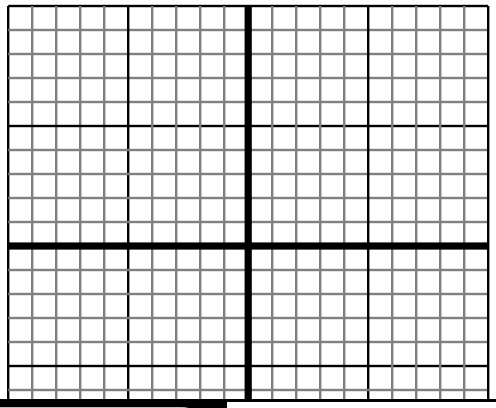

6) Dibuje una línea con una intersección en Y de 0 y una tasa de cambio mayor que: $Y = {}^{-1}/_{8} + 0$

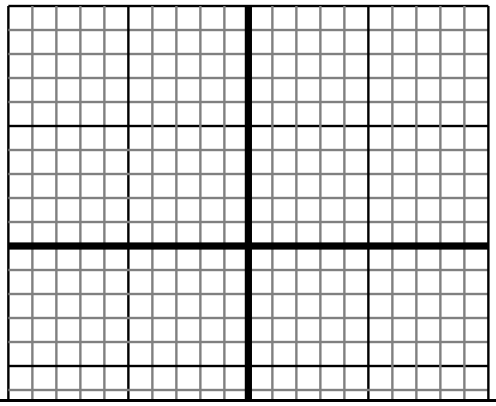

Respuestas

1. _____
2. _____
3. _____
4. _____
5. _____
6. _____

1-6	83	67	50	33	17	0

Dibuja una línea con diferente tasa de cambio

Nombre: **Clave De Respuestas**

Dibuje su línea y luego responda con la pendiente.

1) Sketch a line with a Y intercept of 6 and a smaller rate of change than: $Y = {}^{-6}/_{-1} + 6$

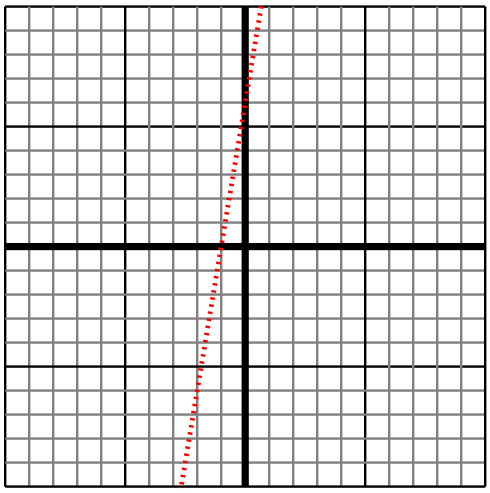

2) Dibuje una línea con una intersección en Y de 9 y una tasa de cambio mayor que: $Y = {}^{-1}/_{9} + 9$

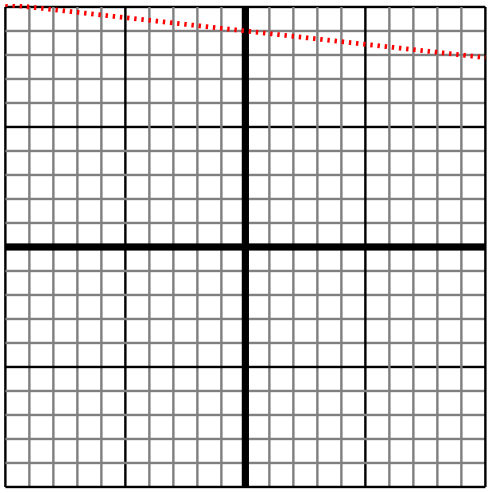

3) Dibuje una línea con una intersección en Y de -9 y una tasa de cambio mayor que: $Y = {}^{-4}/_{6} - 9$

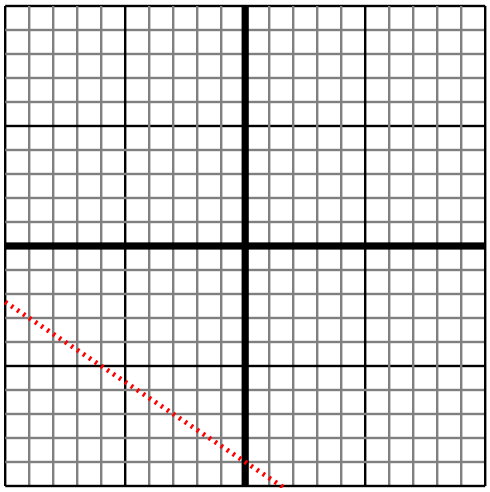

4) Dibuje una línea con una intersección en Y de -3 y una tasa de cambio mayor que: $Y = {}^{-4}/_{-2} - 3$

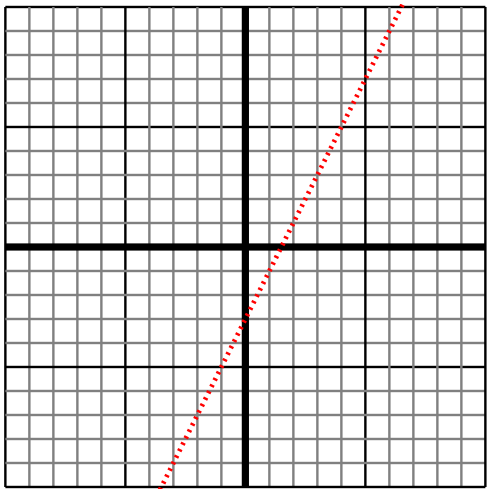

5) Dibuje una línea con una intersección en Y de 6 y una tasa de cambio mayor que: $Y = {}^{-4}/_{6} + 6$

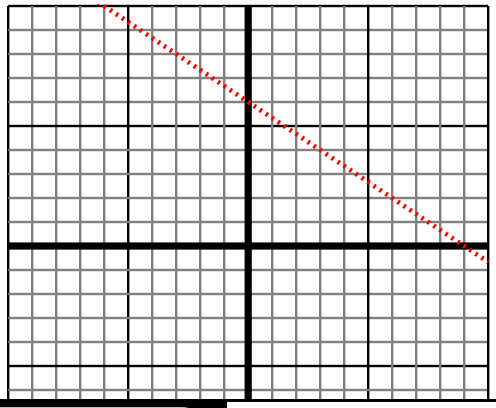

6) Dibuje una línea con una intersección en Y de 0 y una tasa de cambio mayor que: $Y = {}^{-1}/_{8} + 0$

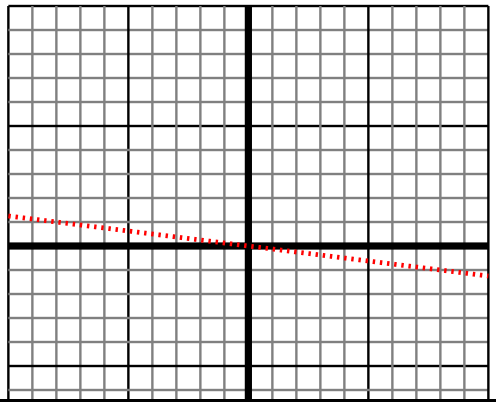

Respuestas

1. $< |{}^{-6}/_{-1}|$
2. $> |{}^{-1}/_{9}|$
3. $> |{}^{-4}/_{6}|$
4. $> |{}^{-4}/_{-2}|$
5. $> |{}^{-4}/_{6}|$
6. $> |{}^{-1}/_{8}|$

1-6	83	67	50	33	17	0