Resuelve cada problema.

1) Cada libra de carne cuesta §5.25.

Cree una tabla que muestre el precio de hasta 5 libras de carne, luego trace los valores en el plano de coordenadas.

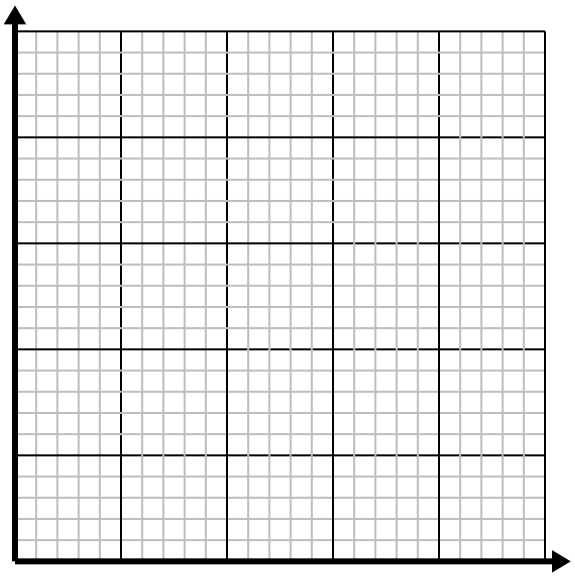

2) Cada vaso de limonada requiere 6 limones.

Cree una tabla que muestre los vasos de limonada hechos con hasta 5 limones, luego trace los valores en el plano de coordenadas.

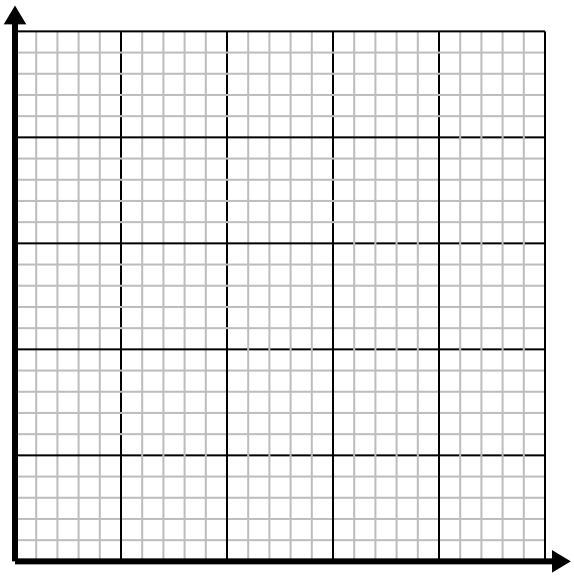

3) Cada caja de caramelos tiene 6 caramelos.

Cree una tabla que muestre las piezas de dulces en hasta 5 cajas, luego trace los valores en el plano de coordenadas.

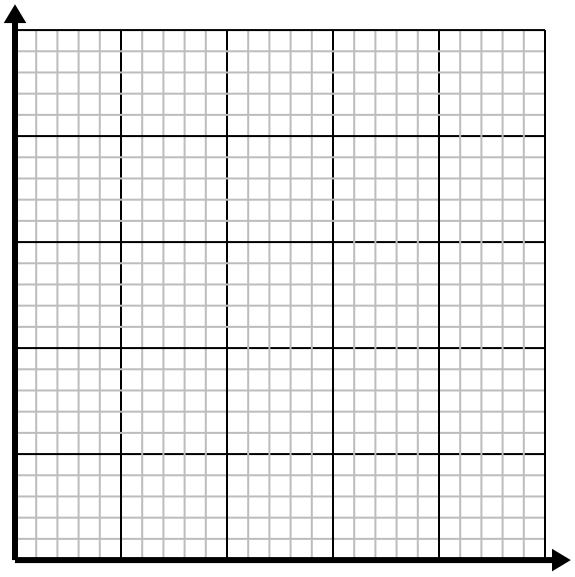

4) Cada minuto se imprimen 2 libros.

Cree una tabla que muestre los libros impresos en el transcurso de 5 minutos, luego trace los valores en el plano de coordenadas.

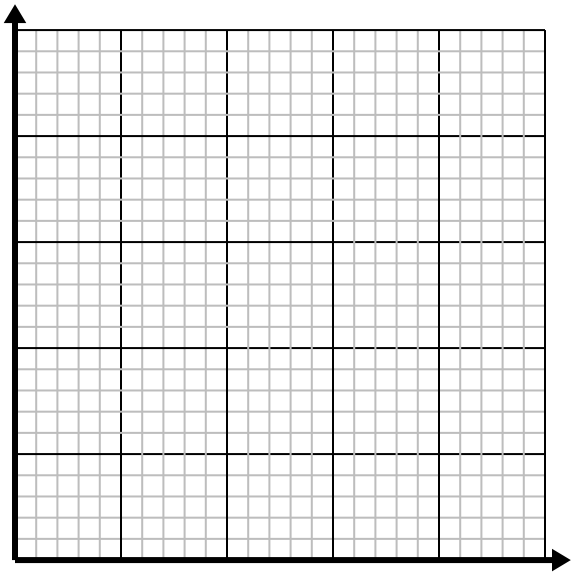

Resuelve cada problema.

1) Cada libra de carne cuesta §5.25.

Cree una tabla que muestre el precio de hasta 5 libras de carne, luego trace los valores en el plano de coordenadas.

Libras de carne	1	2	3	4	5
Precio	5.25	10.5	15.75	21	26.25

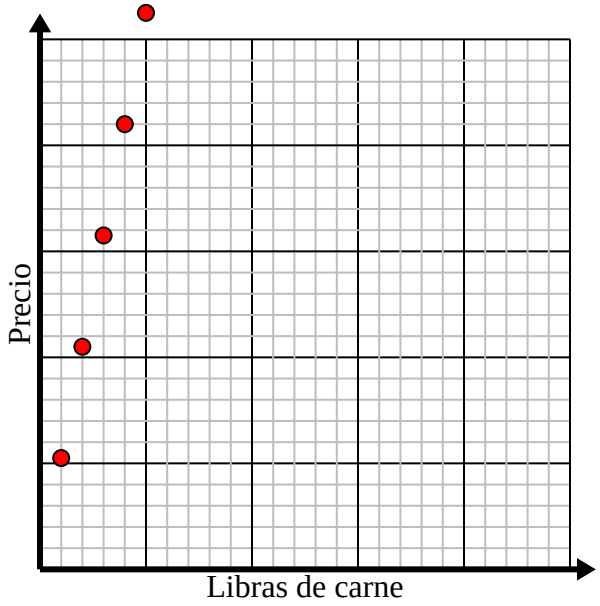

2) Cada vaso de limonada requiere 6 limones.

Cree una tabla que muestre los vasos de limonada hechos con hasta 5 limones, luego trace los valores en el plano de coordenadas.

Lentes	1	2	3	4	5
Limones usados	6	12	18	24	30

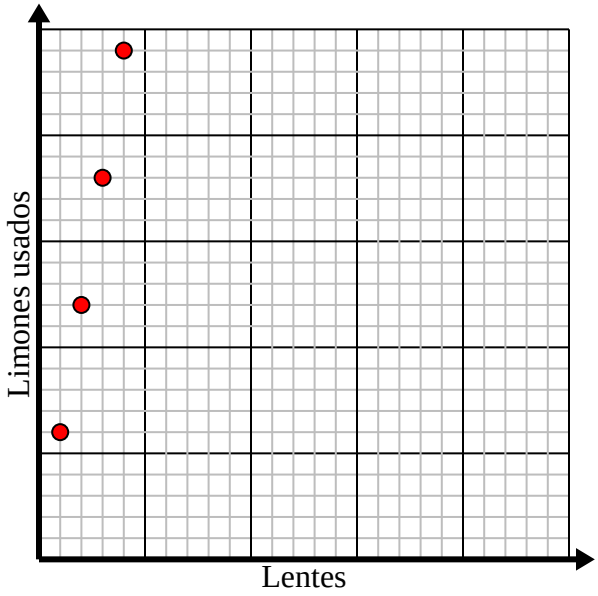

3) Cada caja de caramelos tiene 6 caramelos.

Cree una tabla que muestre las piezas de dulces en hasta 5 cajas, luego trace los valores en el plano de coordenadas.

Cajas de dulces	1	2	3	4	5
Piezas de dulces	6	12	18	24	30

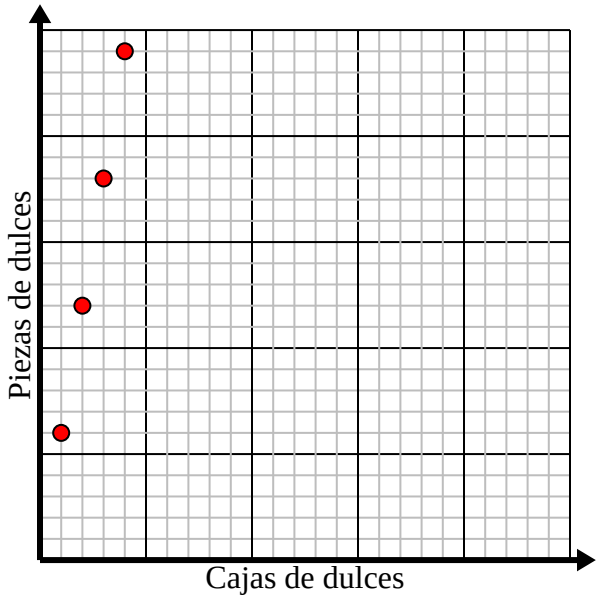

4) Cada minuto se imprimen 2 libros.

Cree una tabla que muestre los libros impresos en el transcurso de 5 minutos, luego trace los valores en el plano de coordenadas.

Minutes	1	2	3	4	5
Libros impresos	2	4	6	8	10

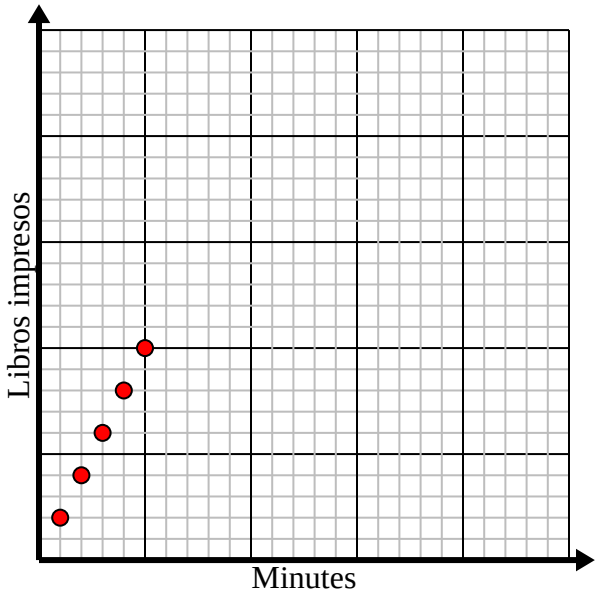

1-4	75	50	25	0