Hallar el tiempo transcurrido con una recta numérica Nombre:

Resuelve cada problema.

1) Inicio: 10:50
Transcurrido: _____
Final: 1:20

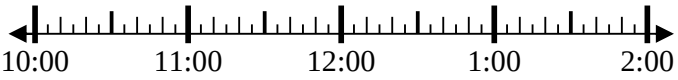

2) Inicio: 5:10
Transcurrido: _____
Final: 6:35

3) Inicio: 11:40
Transcurrido: _____
Final: 1:15

4) Inicio: 4:20
Transcurrido: _____
Final: 6:35

5) Inicio: 5:15
Transcurrido: _____
Final: 7:40

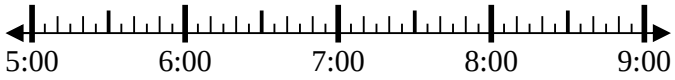

6) Inicio: 10:20
Transcurrido: _____
Final: 12:55

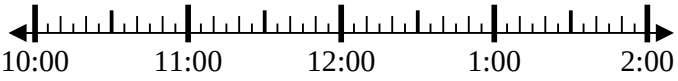

7) Inicio: 12:45
Transcurrido: _____
Final: 3:35

8) Inicio: 10:40
Transcurrido: _____
Final: 12:10

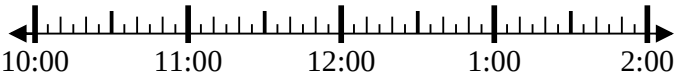

Respuestas

1. _____
2. _____
3. _____
4. _____
5. _____
6. _____
7. _____
8. _____

1-8	88	75	63	50	38	25	13	0

Hallar el tiempo transcurrido con una recta numérica Nombre: **Clave De Respuestas**

Resuelve cada problema.

1) Inicio: 10:50
Transcurrido: 2 hrs y 30 mins
Final: 1:20

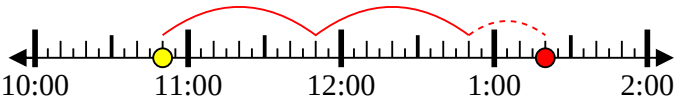

2) Inicio: 5:10
Transcurrido: 1 hr y 25 mins
Final: 6:35

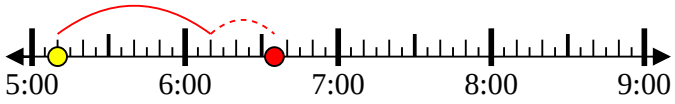

3) Inicio: 11:40
Transcurrido: 1 hr y 35 mins
Final: 1:15

4) Inicio: 4:20
Transcurrido: 2 hrs y 15 mins
Final: 6:35

5) Inicio: 5:15
Transcurrido: 2 hrs y 25 mins
Final: 7:40

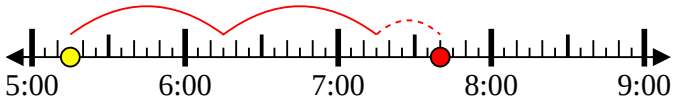

6) Inicio: 10:20
Transcurrido: 2 hrs y 35 mins
Final: 12:55

7) Inicio: 12:45
Transcurrido: 2 hrs y 50 mins
Final: 3:35

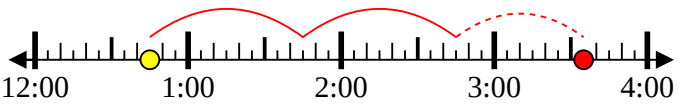

8) Inicio: 10:40
Transcurrido: 1 hr y 30 mins
Final: 12:10

Respuestas

1. **2 hrs y 30 mins**
2. **1 hr y 25 mins**
3. **1 hr y 35 mins**
4. **2 hrs y 15 mins**
5. **2 hrs y 25 mins**
6. **2 hrs y 35 mins**
7. **2 hrs y 50 mins**
8. **1 hr y 30 mins**

1-8	88	75	63	50	38	25	13	0