Encontrar la hora de inicio con una recta numérica Nombre:

Resuelve cada problema.

1) Inicio: _____
Transcurrido: 1 hr y 25 mins
Final: 10:45

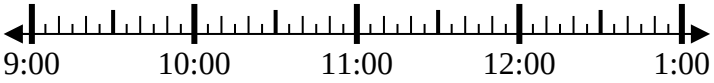

2) Inicio: _____
Transcurrido: 2 hrs y 55 mins
Final: 4:55

3) Inicio: _____
Transcurrido: 2 hrs y 15 mins
Final: 9:55

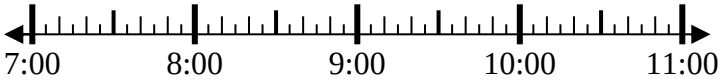

4) Inicio: _____
Transcurrido: 1 hr y 10 mins
Final: 8:25

5) Inicio: _____
Transcurrido: 2 hrs y 25 mins
Final: 1:40

6) Inicio: _____
Transcurrido: 1 hr y 25 mins
Final: 6:55

7) Inicio: _____
Transcurrido: 2 hrs y 40 mins
Final: 2:40

8) Inicio: _____
Transcurrido: 1 hr y 20 mins
Final: 1:35

Respuestas

1. _____
2. _____
3. _____
4. _____
5. _____
6. _____
7. _____
8. _____

1-8	88	75	63	50	38	25	13	0

Encontrar la hora de inicio con una recta numérica

Nombre: **Clave De Respuestas**

Resuelve cada problema.

1) Inicio: 9:20
Transcurrido: 1 hr y 25 mins
Final: 10:45

2) Inicio: 2:00
Transcurrido: 2 hrs y 55 mins
Final: 4:55

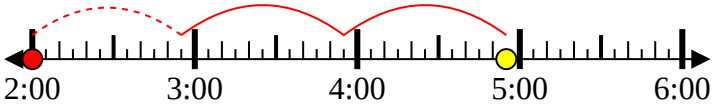

3) Inicio: 7:40
Transcurrido: 2 hrs y 15 mins
Final: 9:55

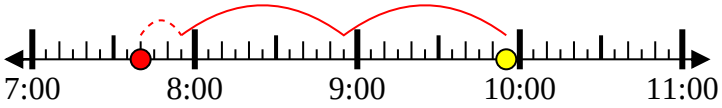

4) Inicio: 7:15
Transcurrido: 1 hr y 10 mins
Final: 8:25

5) Inicio: 11:15
Transcurrido: 2 hrs y 25 mins
Final: 1:40

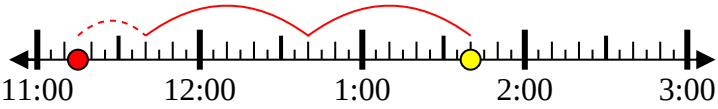

6) Inicio: 5:30
Transcurrido: 1 hr y 25 mins
Final: 6:55

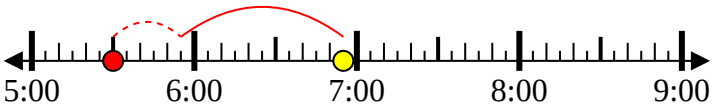

7) Inicio: 12:00
Transcurrido: 2 hrs y 40 mins
Final: 2:40

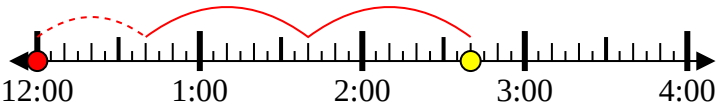

8) Inicio: 12:15
Transcurrido: 1 hr y 20 mins
Final: 1:35

Respuestas

1. **9:20**
2. **2:00**
3. **7:40**
4. **7:15**
5. **11:15**
6. **5:30**
7. **12:00**
8. **12:15**

1-8	88	75	63	50	38	25	13	0