Resuelve cada problema.

Respuestas

1. _____
2. _____
3. _____
4. _____
5. _____
6. _____

1)

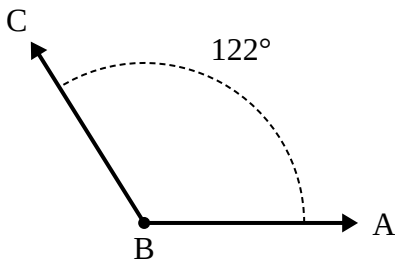

A. Dibuja y etiqueta la intesección BD de modo que corte el ángulo ABC en dos ángulos más pequeños, con el ángulo ABD midiendo {MEDICIÓN} grados.

B. ¿Cuál es la medida del ángulo DBC?

2)

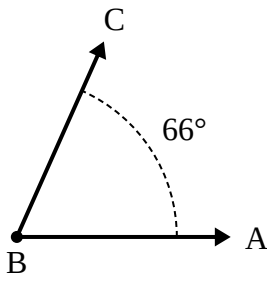

A. Dibuja y etiqueta la intesección BD de modo que corte el ángulo ABC en dos ángulos más pequeños, con el ángulo ABD midiendo {MEDICIÓN} grados.

B. ¿Cuál es la medida del ángulo DBC?

3)

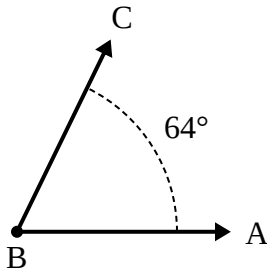

A. Dibuja y etiqueta la intesección BD de modo que corte el ángulo ABC en dos ángulos más pequeños, con el ángulo ABD midiendo {MEDICIÓN} grados.

B. ¿Cuál es la medida del ángulo DBC?

4)

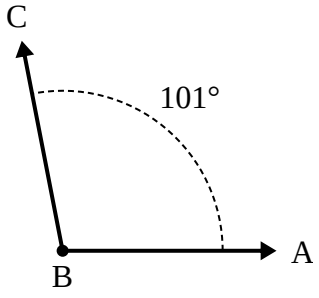

A. Dibuja y etiqueta la intesección BD de modo que corte el ángulo ABC en dos ángulos más pequeños, con el ángulo ABD midiendo {MEDICIÓN} grados.

B. ¿Cuál es la medida del ángulo DBC?

5)

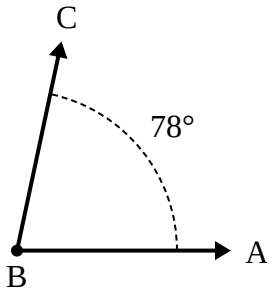

A. Dibuja y etiqueta la intesección BD de modo que corte el ángulo ABC en dos ángulos más pequeños, con el ángulo ABD midiendo {MEDICIÓN} grados.

B. ¿Cuál es la medida del ángulo DBC?

6)

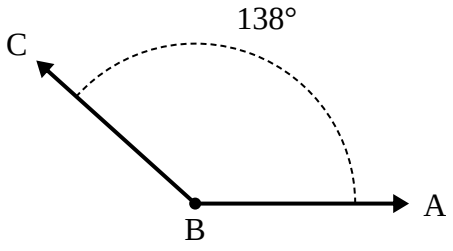

A. Dibuja y etiqueta la intesección BD de modo que corte el ángulo ABC en dos ángulos más pequeños, con el ángulo ABD midiendo {MEDICIÓN} grados.

B. ¿Cuál es la medida del ángulo DBC?

1-6	83	67	50	33	17	0

Resuelve cada problema.

1)

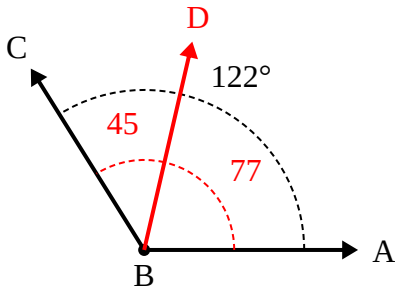

A. Dibuja y etiqueta la intesección BD de modo que corte el ángulo ABC en dos ángulos más pequeños, con el ángulo ABD midiendo {MEDICIÓN} grados.

B. ¿Cuál es la medida del ángulo DBC?

2)

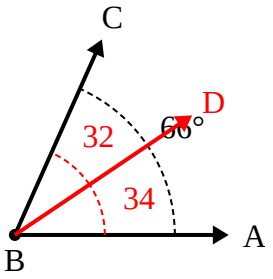

A. Dibuja y etiqueta la intesección BD de modo que corte el ángulo ABC en dos ángulos más pequeños, con el ángulo ABD midiendo {MEDICIÓN} grados.

B. ¿Cuál es la medida del ángulo DBC?

3)

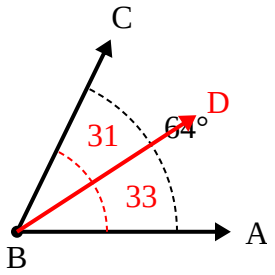

A. Dibuja y etiqueta la intesección BD de modo que corte el ángulo ABC en dos ángulos más pequeños, con el ángulo ABD midiendo {MEDICIÓN} grados.

B. ¿Cuál es la medida del ángulo DBC?

4)

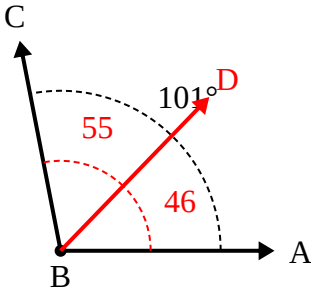

A. Dibuja y etiqueta la intesección BD de modo que corte el ángulo ABC en dos ángulos más pequeños, con el ángulo ABD midiendo {MEDICIÓN} grados.

B. ¿Cuál es la medida del ángulo DBC?

5)

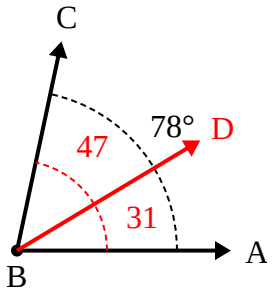

A. Dibuja y etiqueta la intesección BD de modo que corte el ángulo ABC en dos ángulos más pequeños, con el ángulo ABD midiendo {MEDICIÓN} grados.

B. ¿Cuál es la medida del ángulo DBC?

6)

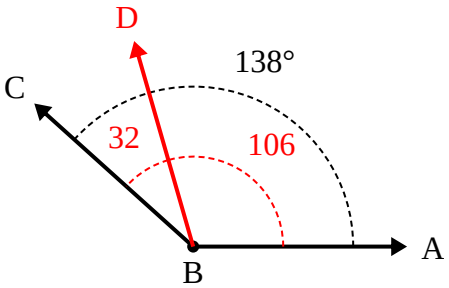

A. Dibuja y etiqueta la intesección BD de modo que corte el ángulo ABC en dos ángulos más pequeños, con el ángulo ABD midiendo {MEDICIÓN} grados.

B. ¿Cuál es la medida del ángulo DBC?

Respuestas

1. **45°**
2. **32°**
3. **31°**
4. **55°**
5. **47°**
6. **32°**

1-6	83	67	50	33	17	0